2014 年河南省选调生考试

言语理解与表达

2014-河南选调生-1.在环境问题上，我们所面临的困境不是由于我们_____，而是我们尽力做了，但却无法遏制环境恶化的势头，这是一个信号：把魔鬼从瓶子里放出来的人类，已经失去把魔鬼再装回去的能力。

A.无所顾忌

B.无所不为

C.无所事事

D.无所作为

【答案】：D

【所属考试模块】 言语理解与表达

【考点】成语辨析

【难度系数】中等

【华图老师】李瑞敏

【华图老师解析】语境信息，关联词“不是……而是……”表示反向并列。不是后面应填入和“而是”后面语义相反的词语。文段中”而是“之后是“我们尽力了”可知，已经是努力做过了，那么“无所作为”意思为“没有做出任何成绩。正和此意思相反。因此，本题正确答案为 D 项。

【纠错】A 项“无所顾忌”指没有什么顾虑、畏惧。偏重于想干什么就干什么，而文段中应填入努力做事的意思，语义不符，排除 A 项。B 项“无所不为”指什么坏事都干了。文段中是“面临的困境”，不符，排除 B 项。C 项“无所事事”指闲着什么事都不干。侧重点在“闲”和文段语境侧重在“做”，排除 C 项。

2014-河南选调生-2.预循环是一种更环保的生活方式，指通过_____购入会产生垃圾的家庭或商业物品来减少垃圾数量的行为，可循环的垃圾经过处理后可以_____别的功效，可是处理这些可循环物质也是要消耗能源并产生垃圾的，所以更环保的方式是尽量少用会产生垃圾的物品。

A.避免　发挥

B.杜绝　具备

C.放弃　衍生

D.禁止　实现

【答案】：A

【所属考试模块】 言语理解与表达

【考点】实词辨析

【难度系数】中等

【华图老师】李瑞敏

【华图老师解析】先看第一空，语境信息为“减少垃圾数量的行为”，不能填语义过重的词。再看后面搭配对象是“行为”。“避免.....行为”搭配合适。因此，本题正确答案为 A 项。

【纠错】B 项“杜绝”、D“禁止”两项，语义过重，因为填入“杜绝”或“禁止”后就是“行为”完全消失了。排除 B、D。再看后面搭配对象是“行为”，C 项“放弃”搭配不当，排除 C 项。

2014-河南选调生-3.关于如何有效解释两次世界大战的起源和暴行产生的机制，战争史家一直感到_____。他们发现，当落实到细节研究上时，常常_____迭出。譬如马克思主义史家认为经济压力是大战的动因，但历史事实却是二战爆发在欧洲的经济上扬期，因此许多战争史家不得不有此共识：战争起源问题并非历史学专业所能解释。

A.尴尬　谬论

B.困惑　悖论

C.犹豫　矛盾

D.沮丧　误解

【答案】：B

【所属考试模块】 言语理解与表达

【考点】实词辨析

【难度系数】中等

【华图老师】李瑞敏

【华图老师解析】关键在第二个空，语境信息“譬如.....，但.....”可知，关于两次世界大战起源的问题，这两种结论是完全相反的。所以填语义比较重的的词。“悖论”语义最重，并且“悖论迭出”是固定搭配。因此，本题的正确答案为 B。

2014-河南选调生-4.对于古埃及的农民来说，_____尼罗河泛滥的规律是性命

攸关的大事，因此他们_____着去计算天数，小心地记录日期，他们把月亮和星星作为日历。当天狼星在夏天升起的时候，古埃及人知道尼罗河就要泛滥了；接着当新月时候，就是古埃及新一年的开始。

A.揭示　尝试

B.遵循　坚持

C.总结　学习

D.掌握　摸索

【答案】：D

【所属考试模块】 言语理解与表达

【考点】实词辨析

【难度系数】中等

【华图老师】李瑞敏

【华图老师解析】语境信息“.....计算天数，小心记录”，是并列关系，“摸索”和“小心”语义上构成并列。由语境信息“他们把月亮和星星作为日历”可知，第一个空的“规律”是未知的，所以对于未知的规律，那就只有“掌握”了。因此，本题的正确答案为D项。

【纠错】文段主体“古埃及的农民”，“揭示”的动作发出者不能是人，排除A项。文中“规律”是未知的，遵循的规律是已知的，文意相反，排除B项。“学习”和小心“不能构成并列关系，逻辑关系错误，排除C项。

2014-河南选调生-5.法律的制定有一个严格程序，理论上也是民意的显示。不能在一时的情况下因为民意就改，这会破坏法律的_____性。如果开了口子，以后大家_____，那就连法律都不要了。

A.连贯　一哄而起

B.严肃　一如既往

C.客观　众口一辞

D.公正　一唱百和

【答案】：A

【所属考试模块】 言语理解与表达

【考点】实词与成语综合考查

【难度系数】

【华图老师】李瑞敏

【华图老师解析】第一空，语境信息“不能在一时的情况之下”改变民意，可知，法律这件事不能因为个别情况改变，那就是保持不变，A 项“连贯”，具有保持不变的意思。从语体色彩上说，“开了口子”偏向口语，“一哄而起”也偏向口语，语体符合。因此，本题的正确答案为 A。

2014-河南选调生-6.现在，很多保健品的广告做得很好，但消费者并不知道自己有没有必要吃这些东西。其实很多保健品在研发时并未做过_____ 调查，并不知道哪种营养素是大家普遍缺乏的。服用未经这样的调查就开发出的保健品，对消费者来说完全是一种_____。

A.严格　误导

B.科学　浪费

C.跟踪　欺骗

D.实地　伤害

【答案】：B

【所属考试模块】 言语理解与表达

【考点】实词辨析

【难度系数】

【华图老师】李瑞敏

【华图老师解析】解题关键在第二空。语境信息“有没有必要吃这些东西”，“并不知道哪种营养素是大家普遍缺乏的”，可知，对于保健品来说，消费了吃了可能根本不必要吃或者消费者身体其实根本就不缺这种营养元素。那么对于消费者来说，保健品只能是“浪费”。把“科学”带入第一空，对应语境信息“并不知道哪种营养素是大家普遍缺乏的”。因此，本题的正确答案为 B。

2014-河南选调生-7.年全球金融海啸肆虐,以家电为代表的消费性电子产品外销的需求急速衰退，家电企业可谓_____。为了扩大国内市场，也为了让国内家电企业走出低谷，家电下乡、以旧换新、节能补贴等政策陆续出台。这些扶持性政策_____，对家电业发展产生了巨大的推动作用。

A.如履薄冰　有的放矢

B.今非昔比　有目共睹

C.举步维艰　不负众望

D.江河日下　任重道远

【答案】：C

【所属考试模块】 言语理解与表达

【考点】成语辨析

【难度系数】

【华图老师】李瑞敏

【华图老师解析】第一空，语境信息“需求急速衰退”、“低谷”可知家电企业处境艰难，“举步维艰”和“江河日下”合适。再看第二空，语境信息采取一系列政策后“对家电业发展产生了巨大的推动作用”。“不负众望”指不辜负大家的期望。符合文意。所以，本题的正确答案为 C 项。

【纠错】如履薄冰指意思是像走在薄冰上一样。比喻行事极为谨慎，存有戒心。

2014-河南选调生-8.也许有一天，人类能到毗邻行星进行自由探险，使用大功率望远镜认识我们周围的星球；总有一天，我们也将切实探索地球上大洋深处的每一寸土地，以及_____的原始森林，却很可能永远无法到地球中心去旅行。由于温度极高、压力极大，地球内部很可能永久性地成为人类无法到达的_____。

A.人迹罕至　禁区

B.郁郁葱葱　深渊

C.一望无际　绝境

D.神秘莫测　彼岸

【答案】：A

【所属考试模块】 言语理解与表达

【考点】实词与成语综合考查

【华图老师】李瑞敏

【华图老师解析】第一空，语境信息“；”表明前两句话是在语义上并列关系。“；”之前说“到人类能到毗邻行星进行自由探险”，“；”之后“探索_____的原始森林”，只能填“人没到过”的意思，那就只有“人迹罕至”符合文意。再看第二空，“禁区”也符合语境信息“永久性地成为人类无法到达”。所以，本题的正确答案 A 项。

2014-河南选调生-9.信用问题本质上是一个制度问题，信用使人们为了获得长远利益而愿意牺牲眼前利益。一个人的最优行为与他的生命预期有关，生命预期越

长，他的行为就越_____，就越愿意坚持_____自己的承诺。所以，建立信用制度，最重要的是使每一个公民，每一个企业都有一个长期的预期。

A.主动　履行

B.规范　兑现

C.明确　遵守

D.一致　尊重

【答案】：B

【所属考试模块】 言语理解与表达

【考点】实词辨析

【难度系数】中等

【华图老师】李瑞敏

【华图老师解析】四个选项词语差别不大，考查固定搭配。第一空“行为就越_____”，“规范行为”固定搭配。第二空“_____自己的承诺”，“兑现”与之是固定搭配。所以，本题的正确答案为B项。

2014-河南选调生-10.英国目前是世界上不同言语群体之间进行交流的主要方式，这种交流时文化间的知识交流，它的_____是存在着相互分离的文化。换句话说，作为通用语言的英语是处理语言差异和文化差异的方式，而不是_____它们的方式。

A.表现　同化

B.特征　隔绝

C.基础　统一

D.前提　消灭

【答案】：D

【所属考试模块】 言语理解与表达

【考点】实词辨析

【难度系数】中等

【华图老师】李瑞敏

【华图老师解析】语境信息：关联词“是.....而不是.....”，表示反向并列。“通用语言的英语是处理语言差异和文化差异的方式”，与“而不是_____它们的方式”。这两句话语义上是并列关系。故第二空应填入“处理语言差异和文化

差异的方式”语义成并列的词。只有“消灭”合适。把“前提”代入原文，正是因为有这种前提存在，后文才处理这种差异，语义相符。所以，本题的正确答案为 D 项。

2014-河南选调生-11.德国人卡尔·奔驰研制的第一台以汽油为动力的汽车于1886年获得专利，从此汽油汽车_____，燃烧汽油作为动力也似乎成为_____的事，然而世界经济论坛评论出的“2008年科技先驱”，却赫然将细菌“开动”小汽车列入其中，我们是否正在_____汽油汽车时代？真正环保的汽车是否正向我们走来？

A.唯我独尊　理所当然　变革

B.大行其道　水到渠成　抛弃

C.势不可挡　约定俗成　终结

D.风靡全球　天经地义　告别

【答案】：D

【所属考试模块】 言语理解与表达

【考点】实词与成语综合考查

【难度系数】中等

【华图老师】王燕

【华图老师解析】根据题意，第一空应填入“被大众接受，并被广泛应用”意思的成语，风靡全球符合题意；根据后文的提示信息“真正环保的汽车是否正向我们走来”可知，第三空所填词语应该有“告别过去”意思的词，因此，本题答案为 D 项。

【纠错】第一空 A 项“唯我独尊”是指“认为只有自己最了不起，形容极端自高自大”，有明显消极倾向，而原文是客观陈述，与原文感情倾向不符，排除 A 项；第二空“约定俗成”指事物名称或社会习惯往往是由人民群众经过长期社会实践而确定或形成的，放在此处，语义不符，排除 C 项；第三空“抛弃”有明显的消极倾向，排除 B 项

2014-河南选调生-12.最近，一项关于体重和死亡率的研究让人_____，该研究认为，按照国际_____的体重评价标准，超重人群比体重正常人群在同一时期内的死亡率可能要低 6%。这一结果一经公布，立即掀起了轩然大波，因为大众

媒体数十年来一直_____的观念是，超重甚至是适度的体重增加都不利于健康。

A. 啼笑皆非　公认　同意

B. 出乎意料　通行　宣传

C. 匪夷所思　现行　强调

D. 无话可说　认可　灌输

【答案】：B

【所属考试模块】 言语理解与表达

【考点】实词与成语综合考查

【难度系数】中等

【华图老师】王燕

【华图老师解析】根据题意，第一空所填词语的意思应该是“与我们平时理解不一样”意思的词，出乎意料符合要求；第二空“国际通行评价标准”是习惯搭配；第三空由前面的限定语“大众媒体”可知，宣传最符合题意要求。

2014-河南选调生-13.观察过去五年广东的发展路径，可以_____地看到当地政府、企业、民众从歧路彷徨到艰难转型的过程。要触动既得利益，要牺牲眼前利益，不仅需要勇气，更需要智慧。要_____已有的“获利”途径，要_____用贯了的政策“拐杖”，不仅需要“自我革命”，还需要“群体参与”。

A.完整　抛弃　脱离

B.欣慰　放弃　放开

C.客观　抛弃　松开

D.清楚　舍弃　扔掉

【答案】：D

【所属考试模块】 言语理解与表达

【考点】实词辨析

【难度系数】较易

【华图老师】王燕

【华图老师解析】第一空较难区分，第二空根据前文提示信息“牺牲眼前利益”“需要勇气”可知，“对已有的‘获利’途径”有一种“不舍之情”，“舍弃”侧重表示割爱，能体现出这种感情；第三空与“拐杖”相搭配，“扔掉”最恰当。

故本题正确答案为 D 项。

2014-河南选调生-14.在海洋争议问题上，过去我们一直提倡“搁置争议，共同开发”。但是从_____上讲，如果不强调主权在我，“搁置争议”在某种程度上容易被_____为主权存在争议；“共同开发”本意是双方商量好再开发，可是某种程度上，你开发你的，我开发我的，容易被_____为“共同”开发。

A.客观　固化　曲解

B.理论　确认　偷换

C.本质　定义　衍化

D.逻辑　默认　误解

【答案】：D

【所属考试模块】 言语理解与表达

【考点】实词辨析

【难度系数】较难

【华图老师】王燕

【华图老师解析】由后文提示信息“如果……”是一种假设关系可知，第一空用“逻辑”最合适；再根据提示信息“你开发你的，我开发我的”明显与“共同开发”的本意“双方商量好再开发”的意思不相符，所以“误解”符合要求。因此本题正确答案为 D 项。

【纠错】根据后文提示信息并不能看出“本质”，也没有提到任何“理论”，所以第一空排除 B 和 C 两个选项；第三空“曲解”是故意歪曲理解，用在此处语义过重，排除 D 项。

2014-河南选调生-15.“手机当电脑用，电脑当电视用，电视当摆设用”，对于电视机制造企业来说，这似乎已经成了一个_____的事实。互联网给了视频内容一个_____的传输和显示渠道，仅仅作为显示屏的电视似乎难逃被淘汰的命运。如何才能提高这块硕大显示屏的价值？_____电视机“智能”，已经成为这个产业的共识。

A.铁定　快捷　开发

B.公认　多维　研究

C.严峻　灵活　整合

D.尴尬　全新　赋予

【答案】：D

【所属考试模块】 言语理解与表达

【考点】实词辨析

【难度系数】中等

【华图老师】王燕

【华图老师解析】根据题意，第一空修饰限定的“事实”冲击了电视机制造企业，所以第一空应填入一个消极倾向的词，“严峻”和“尴尬”满足要求；第二空根据题意，视频内容最早是通过电视传播的，互联网给我们提供的传播途径与以往不同，所以是“全新”的；第三空意思是“让电视也变得只能”是我们让其变得有价值，赋予更合适。

【纠错】第一空“铁定”与“公认”是中性词，不符合原文消极倾向的要求，排除 A 和 B 两个选项；第三空“整合”通常是在原有基础上进行的，而这里面“智能”是电视目前还不具备的，所以排除 C 项。

2014-河南选调生-16.在没有特别说明的情况下，通货膨胀一般是用消费者价格指数（CPI）衡量的物价涨幅，这主要因为 CPI 是根据一国消费者最终消费支出的商品种类和权重编制的价格指数，该指数直接地影响居民收入的真实购买力。政府从维护居民收入的真实购买力。政府从维护居民福利的角度看，没有哪个价格指数比 CPI 更合适、更体贴民意了。而食品价格被动主导了中国的消费者价格指数波动，这不仅仅因为食品价格在商品篮子中占超过三成以上的比重，更重要的是食品价格本身波动剧烈，故而关注食品价格波动成为研究中国通货膨胀的重中之重。

对这段文字概括最准确的是：

A.说明在中国食品价格为何成为研究通胀问题的焦点

B.分析控制食品价格波动对中国国计民生的重要意义

C.解释食品价格波动如何对消费者价格指数产生影响

D.强调提高居民的真实购买力应从控制食品价格入手

【答案】：A

【所属考试模块】 言语理解与表达

【考点】主旨概括

【难度系数】较易

【华图老师】王燕

【华图老师解析】文段开头指出通货膨胀通常用 CPI 衡量，并解释了原因；紧接着指出食品价格主导了 CPI，最后“故而”引出文段重点“关注食品价格波动成为研究中国通货膨胀的重中之重”。因此本文就在解释我们研究通货膨胀为什么要把研究中国食品价格作为重点。本题正确答案为 A。

【纠错】B 项“国计民生”在原文中没有提及，可以排除；C 项描述的是“食品价格”与 CPI 两者之间的关系，不是原文重点，可以排除；D 项“提高居民的真实购买力”原文没有提到，排除。

2014-河南选调生-17.在中国传统观念中，雕塑一直未被看作是与绘画同等的艺术形式；在中国传统学术中也只有“画学”而没有“雕塑学”。历史上的这种不重视，造成 19 世纪末 20 世纪初，大量具有极高史料研究价值的石雕塑作品流失海外。而今天，新兴收藏家的目光也只停留在艺术品的财富表现上，因此使得元、明、清三代的铜鎏金佛像价格一路飞涨，而面对那些真正体现中国雕塑文化及历史风貌的高古石雕时，他们表现得却有些畏畏缩缩、举棋不定，这难免让人觉得遗憾。

这段文字主要谈论的是：

A.观念上重视雕塑艺术的意义

B.高古雕像在中国不受重视的原因

C.目前雕塑收藏家不成熟的心态

D.雕塑收藏品价格与价值背离的状况

【答案】：B

【所属考试模块】　言语理解与表达

【考点】主旨概括

【难度系数】较易

【华图老师】王燕

【华图老师解析】文段开头交代雕塑不被重视导致很多石雕作品流失海外，今天收藏家们虽然开始重视雕塑，但是只停留在财富表象，一些体现雕塑文化及历史

风貌的高古石雕仍然被忽视。文段因此后面是文段重点，话题是围绕雕塑作品展开，因此本题答案为 B 项。

【纠错】本题容易错选 C 项，整个文段重点讨论的并不是收藏家的心态问题，而是雕塑作品没有得到重视，C 项与原文话题不一致。

2014-河南选调生-18.几乎每个人的内心深处，都有着对乌托邦和理想社会的向往，反乌托邦主体则是将其逻辑进行推演，最终会发现理想（主要是对制度和技术的崇拜）往往会导致种种无法控制的弊端：极权统治、非人性社会、精神压抑等。与乌托邦批判“旧”或允诺“新”的热度相比，反乌托邦的语汇更加冷峻，也更尊重人性的真是。大多数反乌托邦作品都充满想象力和黑色幽默，其辛辣的讽刺让我们哭笑不得，然后冷汗涔涔。

对这段文字概括最准确的是：

A.揭示乌托邦理想的弊端

B.介绍反乌托邦作品的特点

C.描述理想与现实之间的鸿沟

D.指出乌托邦与反乌托邦作品的差异

【答案】：B

【所属考试模块】 言语理解与表达

【考点】主旨概括

【难度系数】较易

【华图老师】王燕

【华图老师解析】文段为分总结构，第一句话以人们对乌托邦的向往作为铺垫引出话题，第二句话介绍反乌托邦的主题；第三句话介绍反乌托邦的语汇特点，最后一句话总结反乌托邦作品的整体特点。因此本题正确答案为 B。

【纠错】A 项“乌托邦理想”与原文话题“乌托邦作品”不一致；C 项“鸿沟”原文没有提到；

2014-河南选调生-19.英国有着高福利的传统，1601 年英国引入世界首部《济贫法》，1948 年依据《贝弗里奇计划》，宣布建成世界上第一个福利国家，承诺提供“从摇篮到坟墓”全天候福利保障制度服务，但随着经济不景气、尤其是老龄化的日趋严重，英国 65 岁以上老年人口目前已达 16%，养老金严重入不敷出，

目前养老金缺口已达 GDP 的 26%。养老金改革合情合理，但这无疑触动了国民养老费用的奶酪，遭至强烈反抗也在情理之中。显然，福利制度的刚性特征使得由简入奢易，由奢入简难。

对这段文字概括最准确的是：

A.描述英国养老金改革计划举步维艰的状况

B.揭示人口老龄化对英国政府提出的新要求

C.反思英国实行全天候福利保障制度的弊端

D.分析英国高福利传统难以为继的客观原因

【答案】：A

【所属考试模块】 言语理解与表达

【考点】主旨概括

【难度系数】较难

【华图老师】王燕

【华图老师解析】文段为分总结构，开头介绍了英国高福利保障制度的基本情况，紧接着“但”指出该制度在老龄化日趋严重的社会情况下暴露出来的问题，养老金入不敷出；最后一句话重申观点，这种福利保障制度制约了养老金改革计划。因此本题答案为 A 项。

2014-河南选调生-20.历史上，语言在世界上的分布反映了世界权力的分配，使用最广泛的语言，如英语、西班牙语、法语、阿拉伯语和俄语，都是或曾是帝国的语言，这些帝国曾积极促进其他民族使用它们的语言。权力分配的变化产生了语言使用的变化，英国和法国都曾坚持在其殖民地使用自己的语言，但大多数前殖民地独立后，都在不同程度上努力使用本土言语代替帝国语言，并取得了不同程度的成功。

这段文字意在说明：

A.本土语言是民族独立的重要标志

B.语言使用是政治权力的某种表现

C.利用权力推行语言是无法持续的

D.殖民统治对语言分布有深刻影响

【答案】：B

【所属考试模块】 言语理解与表达

【考点】意图判断

【难度系数】中等

【华图老师】王燕

【华图老师解析】文段是总分结构，开头提出观点“语言在世界上的分布反映了世界权力的分配”。后文分两层进行解释说明，第二句话以使用最广泛的语言大多是曾经的帝国语言为例进行论证；第三句话以殖民地独立之后，努力推行本土语言为例进行论证。因此本题正确答案为 B。

2014-河南选调生-21.全球变暖是老天爷对人类开出的罚单。便宜且容易利用的矿石燃料，是推动近现代经济增长的重要源泉之一，但科学证明这可能带来灾难性的气候变化。目前不得不面对的现实是，人类必须为自己的排放埋单。如果世界上只有一个国家，此事就相对简单，不管成本多大，最终都由这个国家承担。但问题是，世界上有许多国家，国情和历史大不相同，这张巨额罚单究竟在各国如何分配，就成了关于全球变暖问题谈判最核心的问题。所以国家，他们做出的所有的减排承诺，最后都会有一张价格标签，承诺越多，价码越高。

这段文字意在说明：

A.减排成本份额应按各国的排放量合理分配

B.沉重的减排成本有可能拖累全球经济增长

C.遏制全球变暖需要支付巨额经济成本

D.利益是应对全球变暖问题的最大症结

【答案】: D

【所属考试模块】言语理解与表达

【考点】意图判断

【难度系数】中等

【华图老师】王燕

【华图老师解析】文段开头提出全球变暖会给人类带来灾难性的气候变化，人类必须为自己的行为埋单。“但”之后引出问题症结，这张巨额罚单究竟在各国间如何分配成为最核心的问题，换言之，即利益无法准确分配，因此，正确答案为 D 项。

2014-河南选调生-22.过去 20 年间，金砖国家与欧美发达国家的相对位置不约而同地发生了迅速而巨大的变化。需要强调的不仅是“迅速”和“巨大”，还应注意“不约而同”，因为金砖国家的崛起各自遵循了相去甚远的发展战略，增长模式各不相同。除了时间的同步性之外，金砖国家的经济奇迹并无多少共同之处。如果说“金砖”奇迹的确说明什么，恐怕最准确的结论应该是，这几个国家以自己的成功检验了“条条大路通罗马”这样一个古已有之的道理，证明新兴经济体完全可以凭借自己的力量实现崛起，赶超西方世界。

这段文字意在说明：

A.金砖国家之间应建立固定的磋商机制

B.每个国家都有权选择适合自己的发展道路

C.新兴经济体显示出令世界刮目相看的实力

D.金砖国家之间在发展模式上差异很大

【答案】：D

【所属考试模块】言语理解与表达

【考点】意图判断

【难度系数】较难

【华图老师】王燕

【华图老师解析】原文第二句话提出关注金砖国家所取得的成就，更需要关注“不约而同”，即金砖国家都是按照自己的模式发展，却取得了相同程度的发展成果；此外最后一句再次强调，这些金砖国家的成功验证了“条条大路通罗马”的道路，仍然在强调通往成功的路有很多种，不一定必须按照一个模式发展。因此文段重点突出的是金砖国家的发展模式不一样，答案为 D 项。

【纠错】本题 C 项干扰性很强，但是原文重点并不是强调这些新兴经济体所取得的成绩，而是“不约而同”地取得了成绩，可以排除 C 项。A 项“建立固定的磋商机制”原文中没有提到，可以排除。B 项主体与原文不一致。

2014-河南选调生-23. 默读电视新闻、广告节目文稿的人，比观看电视节目本身的人能记住和回想起更多信息；你鄙视某杂志的价值原则、仍可津津有味地读它，如果电视节目出现这种情况，你就看不下去，赶紧换台。在这种情况下，我们不愿把时间花在不同意的观点上，就不太可能进行反思，实际上对一切东西的质疑

都将更为稀少。把两个书面记录摆在一起看，很容易发现不一致处，甚至能辨别出信息之间权威程度的差别；比较两个视频报道就比较麻烦，在被要求从两个互相冲突的电视报道中加以选择时，观众要么依靠直觉，要么依靠观看之前所相信的东西。

这段文字意在说明：

A.阅读文本比看电视更助于思考

B.信息接受途径影响人的行为习惯

C.电视有可能使人形成错误的价值观

D.喜欢阅读的人比爱看电视的人更冷静

【答案】：A

【所属考试模块】言语理解与表达

【考点】意图判断

【难度系数】较易

【华图老师】王燕

【华图老师解析】文段为分分结构，在阅读文本和看电视之间做比较，列举了几种情况：阅读文本能让人记住和回想更多信息；面对不认同的文本仍然可以阅读，甚至进行反思；把两个书面记录摆在一起容易发现不同之处，甚至辨别出差别。综合来看，都在向我们传递一个信息，阅读文本更有助于思考。因此正确答案为A。

2014-河南选调生-24.在漫长的进化过程中，食物匮乏一直是人类面临的首要威胁。由于食物供应的不确定性和食物不能长期保存，人类一直过着饱一顿、饿几顿的生活，能够最大限度有效利用食物的个体具有生存优势。在经历了反复的饥荒选择后，具有生存优势的个体和他们体内的基因，通过自然选择的方式被保留下来。这些基因能在饱餐一顿后刺激大量分泌胰岛素，从而最大限度地转化利用血液中的葡萄糖。虽然这样做的代价是可能导致肥胖，但它对机体的危害所造成的生存威胁，却知道中年以后才会表现出来，而在人类历史的绝大部分时间里，人的平均寿命不到30岁。

这段文字意在说明：

A.古人的生存环境与现代人完全不同

B.人类的生理结构是自然选择的结果

C.食物匮乏是人类长期应对的首要问题

D.肥胖与人类生存繁衍的优势基因相关

【答案】：D

【所属考试模块】言语理解与表达

【考点】意图判断

【难度系数】中等

【华图老师】王燕

【华图老师解析】文段开头前两句话介绍食物匮乏让具有生存优势的个体和他们体内的基因通过自然选择的方式被保留下来。但是，这样做的代价可能导致肥胖，而且直到中年以后才会表现出来，最后又补充说明人的平均寿命不到 30 岁，也就是说，这种代价通常不会对人们的肌体造成生存威胁。因此本题答案为 D。

2014-河南选调生-25.亚洲国家躲过了近年来的全球大萧条，其中最主要的原因是它未被卷入 2008 年金融危机。然而近日一项调查显示，亚洲的债务水平正在以可怕的速度增长。从某些方面来说，这有部分合理理由。许多国家的超低息政策鼓励贷款，债务增长是财富增长的自然产物。但值得警惕的是，亚洲国家需要借助更大的债务规模来保持经济增长。这个信号表明，亚洲经济健康状况不像 GDP 增长速度反应的那样良好。亚洲目前债务水平总体来说低于亚洲，还处在安全范围内，但债务的迅速增长会让经济体更容易遭受冲击。

这段文字意在说明：

A.亚洲国家经济增长缺乏后劲

B.亚洲国家需警惕陷入债务危机

C.盲目追求 GDP 增长速度后患无穷

D.要全面认识超低息贷款政策的利弊

【答案】：B

【所属考试模块】言语理解与表达

【考点】意图判断

【难度系数】较易

【华图老师】王燕

【华图老师解析】这是一道意图判断题。文段开头亚洲躲过了金融危机，但是债务水平增长较快，并进一步指出亚洲经济状况并不理想，债务迅速增长会让经济更容易受到冲击，因此，正确答案为 B 项。

【纠错】整个文段都是围绕“债务危机”这个话题展开讨论的，A、C、D 三个选项的话题都与原文不符，可以直接排除。

2014-河南选调生-26.气象条件及其变化不仅影响人的生理健康，对心理情绪的影响也非常明显。有利的气象条件使人情绪高涨、心情舒畅；不利的气象条件使人情绪低落、懒惰无力，甚至导致心理及精神病态和行为异常。研究表明，高温、高湿、阴雨以及一些异常天气事件，都不利于人的心理健康。世卫组织的一分资料表明，上世纪的厄尔尼诺现象是全球约 10 万人患上抑郁症，精神病发病率上升 8%。究其原因，是该现象引起全球范围的气候异常和天气灾难，超过部分人的心理承受能力，导致其出现坐卧不安、思维迟钝等精神异常状况。

这段文字意在说明：

A.异常天气会对人的精神状况产生不利影响

B.抑郁症与气候异常、天气灾难有一定关系

C.有必要深入研究厄尔尼诺等异常气象条件

D.古代“天人合一”的说法有一定的科学道理

【答案】：A

【所属考试模块】言语理解与表达

【考点】意图判断

【难度系数】中等

【华图老师】王俊峰

【华图老师解析】这是一道意图判断题，优先寻找文段的主旨句，文段是分总分的结构。“研究表明”后引导的句子即文段的主旨句。根据主旨句，后面世界卫生组织的资料室对主旨句的举例论证及原因分析。只有 A 项是同意替换，所以答案选择 A。

【纠错】B 选项抑郁症是围绕厄尔尼诺现象的举例论证展开的，不是文段的重点；C 选项也是在围绕举例论证论述的，不是文段重点；D 选项文段没有涉及。

2014-河南选调生-27.自人类在地球蛮荒的原野中诞生，自然的演化就烙上了人

类活动的印记。原始文明，先民对大自然顶礼膜拜，人类屈服于宇宙的神奇威力；农业文明，随着智力的发育和对宇宙认知的增加，人类在敬畏自然的基础上开始探索利用自然和改造自然；进入工业文明，人定胜天的骄傲心态侵蚀了人们的神经，人类开始无穷无尽地向自然索取资源，肆无忌惮地向大地倾倒垃圾。人类违背自然的行为，使大自然一次次遭受剧烈的创伤，也使其一次次向人类实施无情的报复。

这段文字意在强调：

A.文明进程与人类对大自然的认知水平未必一致

B.人类对自然的错误态度使其陷入目前的困境

C.敬畏自然是正确处理人类与自然关系的前提

D.人类应当建立尊重自然、和谐发展的价值理念

【答案】：D

【所属考试模块】言语理解与表达

【考点】意图判断

【难度系数】中等

【华图老师】王俊峰

【华图老师解析】文段属于总分总结构，文段开头论述了自然的演化受人类的影响。中间部分分为三方面进行论述，原始文明、农业文明、工业文明人类和自然的关系。最后谈到了人类的这样的行为会遭至自然的报复，那么华图老师的意图，肯定是呼吁人类应该反省自身的行为，应该对自然尊重，和自然和谐发展。答案选择 D。

2014-河南选调生-28.维生素 E 是一种溶解于油中的维生素，它是一种抗氧化剂，能清除氧自由基，从而保护细胞膜上的脂质，而脂质的氧化与冠心病、癌症、衰老等密切相关。总之，维生素 E 是人体不可缺少的营养成分。但是“需要”并不意味着越多越好。维生素 E 缺乏在人群中很少发生，只有几种人可能存在问题：胆汁缺乏或脂肪代谢困难的人；罕见的基因异常导致缺乏维生素 E 转移蛋白的人；因早产儿体重严重不足的婴儿。这些情况在人群中都不易出现。

这段文字所传达的观点是：

A.正常人没必要补充维生素 E

B.应该正确认识维生素 E 的作用

C.人们对维生素 E 的认识存在误区

D.要特别注意可能缺乏维生素 E 的人

【答案】：A

【所属考试模块】言语理解与表达

【考点】主旨概括

【难度系数】中等

【华图老师】王俊峰

【华图老师解析】文段是分总分结构，文段开始论述了维生素 E 的定义及重要性。中间通过“总之”是对前文的总结。之后通过“但”表示转折，转折之后是重点，谈到了维生素 E 并不是越多越好，缺乏维生素 E 的人很少。后面的文字是对这个观点的举例论证。根据主旨句的意思，也就是说正常人没必要补充，答案选择 A 项。

2014-河南选调生-29.传统理论认为，人类祖先由于气候变化、树木减少，被迫离开树栖环境，选择在地面上直立行走。一项最新研究则认为，早期人类直立行走源自现今非洲东部和南部崎岖山脉地区，该地形是上新世时期火山喷发和构造板块移动形成的。人类的祖先被岩石地形和峡谷所吸引，这里可提供良好的庇护栖息地，同时有机会诱捕猎物；这种环境要求早期人类具备直立行走和攀岩的能力，因此人类祖先最终逐渐进化为两足直立行走。

下列哪项与最新研究的结论相符？

A.气候变化致使早期人类选择直立行走

B.人类祖先选择直立行走是为了更好适应地形环境

C.地质条件的变化改变了人类早期祖先的行走方式

D.人类祖先由于食物匮乏被迫离开最初的生活环境

【答案】：B

【所属考试模块】言语理解与表达

【考点】细节理解

【难度系数】中等

【华图老师】王俊峰

【华图老师解析】本题根据“人类的祖先被岩石地形和峡谷所吸引，这里可提供良好的庇护栖息地，同时有机会诱捕猎物；这种环境要求早期人类具备直立行走和攀岩的能力，因此人类祖先最终逐渐进化为两足直立行走。”可知，地形环境的变化使得早期人类直立行走，所以答案选择 B。

【纠错】“人类祖先由于气候变化、树木减少，被迫离开树栖环境，选择在地面上直立行走。”气候变化只是其中一个方面，所以 A 选项不全面。C 选项地质条件与文段不符，文段讲述的是地形的变化，并不是地质变化。D 选项属于无中生有，文段没有明显提到食物匮乏。

2014-河南选调生-30.据英国每日邮报报道，科学家和心理学家长期以来一直未解开一个谜团——为什么我们会忘记童年发生的事情？这是人生之中最无忧无虑、最快乐的时光。目前，两位科学家认为他们揭开了谜底。他们指出，生命初期大脑记忆中枢的细胞快速生长，这意味着早期存在的大脑记忆细胞之间的关键性连接将被更新替代，因此，人们童年时期的记忆就不太可能恢复。他们认为，这可以解释为什么人类很少有对幼年时期的回忆。实际上，无法回忆起童年生活的细节也具有一定的好处，它能使人们不会经常回忆起婴儿时期发生的一些不愉快事件。

根据这段文字，童年回忆缺失的主要原因是：

A.大脑记忆细胞快速发育

B.记忆随事件而模糊消退

C.生命初期语言能力较低

D.儿童具有自我保护机制

【答案】：A

【所属考试模块】言语理解与表达

【考点】细节理解

【难度系数】中等

【华图老师】王俊峰

【华图老师解析】根据“他们指出，生命初期大脑记忆中枢的细胞快速生长，这意味着早期存在的大脑记忆细胞之间的关键性连接将被更新替代”这句话，可知童年回忆缺失的主要原因就是记忆细胞生长快速，记忆细胞的关键性链接被更

新，所以答案选 A。

2014-河南选调生-31.“苍蝇妈妈”是对那些过分关注孩子的家长的称谓，这类家长试图时刻走在孩子前面，提前为他们扫清障碍。美国华盛顿大学的一项相关研究显示，过分关照孩子的父母会妨碍儿童个人能力和独立意识的发展；无微不至的照料会降低儿童的幸福感，并令他们长大后难以正确应对压力。受到父母过度照料的儿童，长大后经常会意志消沉，对生活不满，精神焦虑。为了孩子的身心健康，“苍蝇妈妈”们，_____。

填入划横线部分最恰当的一项是：

A.请适当降低对孩子的期望值

B.请移开你们挡在孩子前面的身体

C.请先学会不被其他意见影响或左右

D.请相信你们纠结的事情其实没那么重要

【答案】：B

【所属考试模块】言语理解与表达

【考点】语句填空

【难度系数】较易

【华图老师】张杰

【华图老师解析】文段描述了一个社会问题“苍蝇妈妈”。文段开头介绍什么是“苍蝇妈妈”，然后描述了“苍蝇妈妈”对孩子健康成长的危害，那么最后肯定是要介绍如何才能避免这种危害，这样才能符合行文脉络“提出问题—分析问题—解决问题”。那么，如何才能解决这中问题？我们可以从“分析问题”中找到解决对策。之所以会出现这种这种危害，是因为家长“时刻走在孩子的前面”，所以解决的时候当然是“移开挡子孩子前面的身体”，因此答案选 B。

2014-河南选调生-32.①18 世纪，茶逐渐成为全民饮品，伦敦工人大约花费家庭总收入的 5%来购买茶叶

②到 1800 年，公司每年在茶上投资 400 万英镑

③中英早期贸易基本上是奢侈品与中草药

④东印度公司不再进口那些只有富人才消费得起的中国商品，转而销售这种人人都负担得起的商品

⑤与中国的贸易成为英国政府的主要税收来源，他们向进口的茶征收 100%的货税

⑥茶便是后者之一，它打劫了英国人的味觉

将以上 6 个句子重新排列，排序正确的是：

A.①④③⑥⑤②

B.①③⑥②④⑤

C.③⑥①④②⑤

D.③⑥⑤①②④

【答案】：C

【所属考试模块】言语理解与表达

【考点】语句排序

【难度系数】中等

【华图老师】张杰

【华图老师解析】首先观察首句，判断 1 和 3 谁更适合做首句。1 句提到“茶逐渐成为全民饮品”不适合做首句，应该先介绍“茶”的出现。所以排除 A、B 项。C、D 两项前两句都是 3、6，那么我们就看 6 句后面是接 1 还是接 5？6 句交代了茶的出现以及它打动了英国人的味觉，那么随之而来的应该是英国人普遍接受它，这样才符合事理的逻辑，所以选择 C 项。

2014-河南选调生-33.从山水画史的观点来看，北宋、南宋皇帝虽然都姓赵，但是画风迥异，通常都被分作两部分来讲；明代是朱元璋的天下，清代姓爱新觉罗，统治者既非一家一姓，时间跨度亦有540余年之久，却常被合在一起讲述。这是因为政治史和美术史并不一定要平行，换言之，明清两代绘画史的主要潮流几乎全在元代画风的影响之下，临摹风盛，创意式微，不像两宋绘画有着显著不同的特色。

下列说法与原文相符的是：

A.宋代帝王很少直接干预绘画创作

B.元代绘画继承了两宋绘画的特色

C.明清两朝的绘画风格具有相似性

D.绘画研究中应特别注重时代背景

【答案】：C

【所属考试模块】言语理解与表达

【考点】细节理解

【难度系数】较易

【华图老师】张杰

【华图老师解析】文段提出明清两朝虽然时间跨度很长，但明清两代的山水画常被和在一起讲述。另外，文段最后还提到明清两代绘画几乎全在元代画风的影响之下，从这些我们可以判断出，明清两朝的的绘画风格具有相似性，所以选择 C 项。

2014-河南选调生-34.你肯定听过这种理论：左撇子的右脑运作比较活跃，因此更为感性，具有艺术天赋；右撇子则充分锻炼了左脑，因而擅长逻辑思维，性格更为理性。这个观念是如此深入人心，以至于有些父母或教育者煞费苦心地让孩子平衡左右手活动。

接下来华图老师最后可能谈论的是：

A.左右脑为何存在分工

B.左右脑如何协调工作

C.左右脑分工不同的例子

D.左右脑未必存在明确分工

【答案】：D

【所属考试模块】言语理解与表达

【考点】下文推断

【难度系数】较易

【华图老师】张杰

【华图老师解析】结语推断题我们重点看最后一句，最后一句说“这个观点如此深入人心，以至于有些父母或教育者煞费苦心地让孩子平衡左右手活动”。之所以让孩子平衡左右手活动，是为了左右脑的全面开发。但是，平衡左右手活动是否能够平衡左右脑的理论还没有确定，而 A、B、C 三项都是基于这个理论已经确定的情况下而言的，所以排除 A、B、C 项。D 项左右脑未必存在明确分工，符合逻辑，故答案选 D。

2014-河南选调生-35.人类的选举制度出了问题，其间充斥了太多的金钱和毫无意义的争辩。或者我们应将目光转向大自然，从中找寻选举的内涵，纠正或改善我们的制度。昆虫学家汤姆·西利建议我们应向蜜蜂学习。西利的研究表明，蜂巢是一个真正地民主社会。当蜜蜂需要找个新家时，地点的选择是由许多蜜蜂投票的，比如根据这一地点的大小、湿度和周围鲜花多少等“质量”参数。每只蜜蜂都用舞蹈投票，当跳某种舞蹈的蜜蜂数目足够多时，大多数的意见也就倾向于该舞蹈所代表的地点。蜜蜂不仅投票决定“迁都”，在候选蜂后的决斗中，工蜂也会以某种方式干预“选举”的走向，选择对整个蜂巢的发展最有好处的那位当女王。

下列哪项最适合做这段文字的标题？

A.聪明的蜜蜂

B.选举的内涵

C.蜜蜂的民主

D.人类的榜样

【答案】：C

【所属考试模块】言语理解与表达

【考点】标题选择

【难度系数】较易

【华图老师】张杰

【华图老师解析】标题应该体现高度的概括性，所以我们应该全面概括文段。通过阅读文段可知，全文主要在讲述蜜蜂的民主。所以标题应该符合文段的主旨，故选择C选项。

数量关系

2014-河南-36.某单位利用业余时间举行了3次义务劳动，总计有112人次参加。在参加义务劳动的人中，只参加1次、参加2次和3次全部参加的人数之比为5:4:1。问该单位共有多少人参加了义务劳动？

A.70　B.80　C.85　D.102

【答案】A

【所属考试模块】数量关系

【考点】基础计算类
【难度系数】中等
【华图老师】王小欢
【技巧】方程法
【华图老师解析】方程法。设只参加 1 次、参加 2 次和 3 次全部参加的人数分别为 $5x$、$4x$、x 。由 $5x+4x\times2+x\times3=112$ ，解得 $x=7$ ，所以总人数是 $5x+4x+x=10x=10\times7=70$ 。因此，本题答案为 A 选项。

2014-河南-37. 环形跑道长 400 米，老张、小王、小刘从同一地点同向出发，围绕跑道分别慢走、跑步、和骑自行车。已知三人的速度分别是 1 米/秒、3 米/秒和 6 米/秒，问小王第 3 次超越老张时，小刘已经超越了小王多少次？

A. 3　B. 4　C. 5　D. 6

【答案】B
【所属考试模块】数量关系
【考点】相遇追击问题
【难度系数】中等
【华图老师】王小欢
【技巧】比例法、方程法
【华图老师解析】本题属于相遇追击问题，小王第三次超越老张，则小王的路程比老张多 3 圈，设老张的路程是 s ，则小王的路程是 $s+400\times3$ ，相同时间下，路程与速度成正比，故 $\frac{s}{s+1200}=\frac{1}{3}$ ，解出 $s=600$ 米。同理，小刘与小王的路程与速度成正比，设小刘的路程是 S ，则由 $\frac{1800}{S}=\frac{3}{6}=\frac{1}{2}$ ，解得 $S=3600$，$\frac{3600-1800}{400}=4.5$ 。因此，本题答案为 B 选项。
【拓展】此类环形行程问题需要明确每次超越，路程多出一圈。

2014-河南选调生-38 某市电价为一个自然月内用电量在 100 度以内的每度电 0.5 元，在 101 度到 200 度之间的每度电 1 元，在 201 度以上的每度电 2 元。张先生家第三季度缴纳电费 370 元，该季度用电最多的月份用电量不超过用电最少月份的 2 倍，问他第三季度最少用了多少度电？

A. 300　B. 420　C. 480　D. 512

【答案】C
【所属考试模块】数量关系
【考点】分段计费类
【难度系数】中等
【华图老师】王小欢
【技巧】代入排除法、构造法
【华图老师解析】代入排除法。根据题意，若用电量最少，需要用电最多的月份用电量是用电最少的月份的两倍，然后代入选项验证，发现只有 C 选项满足。因此，本题答案为 C 选项。

2014-河南选调生-39. 一菱形土地面积为$\sqrt{3}$平方公里，菱形的最小角为 60 度。如果要将这一菱形土地向外扩张变成一正方形土地。问正方形土地边长最小为多少公里？

A. $\sqrt{2}$ B. $\sqrt{3}$ C. $\sqrt{6}$ D. $2\sqrt{6}$

【答案】B
【所属考试模块】数量关系
【考点】长度计算
【难度系数】中等
【华图老师】王小欢
【技巧】方程法

【华图老师解析】可求解出菱形的边长是$\sqrt{2}$。要正方形土地边长最小，需将菱形的长对角线作为正方形的对角线，由正方形的对角线长度为$\sqrt{6}$，解出边长为$\sqrt{3}$。因此，本题答案为 B 选项。

2014-河南选调生-40. 从 A 市到 B 市的航班每周一、二、三、五各发一班。某年 2 月最后一天是星期三。问当年从 A 市到 B 市的最后一次航班是星期几出发的？

A. 星期一 B. 星期二 C. 星期三 D. 星期五

【答案】A
【所属考试模块】数量关系
【考点】日期推断类
【难度系数】中等
【华图老师】王小欢
【技巧】代入排除法、方程法

【华图老师解析】从 3 月 1 日-12 月 31 日，一共 306 天，$\frac{306}{7}=43...5$，则知最后一班是星期一出发的。因此，本题答案为 A 选项。

2014-河南选调生-41. 药厂使用电动研磨器奖一批晒干的中药磨成药粉。厂长决定从上午 10 点开始，增加若干台手工研磨器辅助作业，他估算如果增加 2 台，可在晚上 8 点完成，如果增加 8 台，可在下午 6 点完成，问如果希望在下午 3 点完成，需要增加多少台手工研磨器？

A. 20　B. 24　C. 26　D. 32

【答案】C
【所属考试模块】数量关系
【考点】一元一次方程
【难度系数】中等
【华图老师】周德让
【技巧】方程法

【华图老师解析】方程法，设原来的机器数是x台，由$10(x+2)=8(x+8)$，解得$x=22$，下午三点完成，则需要 48 台机器，故需要增加 26 台机器。因此，本题答案为 C 选项。

2014-河南选调生-42. 某工厂有 100 名工人报名参加了 4 项专业技能课程中的一项或多项，已知 A 课程与 B 课程不能同时报名。如果按照报名参加的课程对工人进行分组，将报名参加的课程完全一样的工人分到同一组中，则人数最多的组最少有多少人？

A. 7　B. 8　C. 9　D. 10

【答案】D

【所属考试模块】数量关系

【考点】长度计算

【难度系数】中等

【华图老师】周德让

【技巧】枚举法、方程法

【华图老师解析】设四个课程分别为 A、B、C、D,则报名参加课程的组合方式数有 A、B、C、D;AB、AC、AD、BC、BD;ACD、BCD 等 11 种，设人数最多的组最少为x人，则其他 10 组都为$x-1$，因此$x+10(x-1)=100$，解得$x=10$。因此，本题答案为 D 选项。

2014-河南选调生-43. 某单位组织参加理论学习的党员和入党积极分子进行分组讨论，如果每组分配 7 名党员和 3 名入党积极分子，则还剩下 4 名党员未安排；如果每组分配 5 名党员和 2 名入党积极分子，则还剩下 2 名党员未安排，问参加理论学习的党员比入党积极分子多多少人？

A. 16　B. 20　C. 24　D. 28

【答案】B

【所属考试模块】数量关系

【考点】余数问题

【难度系数】中等

【华图老师】周德让

【技巧】代入排除法

【华图老师解析】根据余数判定规律“余同取余、和同加和、差同减差”规律可知党员人数为 7×5-3=32；入党积极分子即为 3 的倍数又为 2 的倍数，及 2 和 3 的公倍数，因此参加理论学习的党员比入党积极分子多的人数为：32-6N，符合式子的选项只有 B，此时$N=2$。因此，本题答案为 B 选项。

2014-河南选调生-44. 一个圆形的草地中央有一个与之同心的圆形花坛，在花坛周围和草地周围上各有 3 个不同的点，安放了洒水的喷头，现用直管将这些喷头连上，要求任意两个喷头都能被一根水管连通，问最少需要几根水管？（一根水管上可以连接多个喷头）

A. 5　B. 8　C. 20　D. 30

【答案】B
【所属考试模块】数量关系
【考点】几何个数统计
【难度系数】中等
【华图老师】周德让
【技巧】几何构造
【华图老师解析】几何构造类，在没有连接机巧的情况下，需要的管子数为 $C_6^2=15$，

C 与 D 选项可以排除，A 选项水管量太少，很明显不符合条件。因此，本题答案为 B 选项。具体构造图形如下：

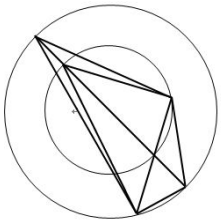

2014-河南选调生-45. 一家四口人的年龄之和为 149 岁，其中外公年龄、母亲年龄以及两人的年龄之和都是平方数，而父亲 7 年前的年龄正好是孩子年龄的 6 倍。问外公年龄上一次是孩子年龄的整数倍是在几年前？

A. 2　B. 4　C. 6.　D. 8

【答案】D
【所属考试模块】数量关系
【题型】
【考点】年龄问题
【难度系数】中等
【华图老师】周德让
【技巧】方程法
【华图老师解析】根据数字特性可以很明显的看出外公年龄、母亲年龄、父亲加儿子的年龄分别为 64、36 和 49。设现在父亲的年龄为 x，儿子的年龄为 y，则 $x+y=49$，又根据父亲 7 年前的年龄正好是孩子的 6 倍可知：$x-7=6(y-7)$。

解得 $x=37, y=12$。因此，本题答案为 D 选项。

判断推理

2014-河南选调生-46 把下面的六个图形分成两类，使每一类图形都有各自的共同特征或规律，分类正确的一项是：

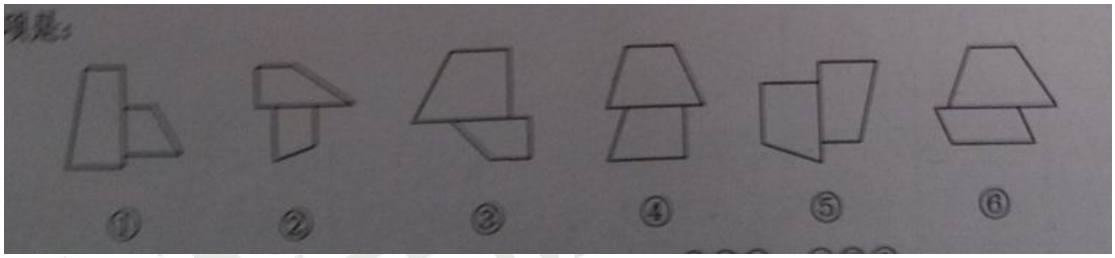

A. ①②③，④⑤⑥

B. ①②④，③⑤⑥

C. ①②⑤，③④⑥

D. ①③④，②⑤⑥

【答案】：B

【所属考试模块】判断推理

【题型】

【考点】功能线

【难度系数】容易

【华图老师】侯芳芳

【华图老师解析】图形的特点是都有一个公共边，公共边是否与其中一个图形的边完全重合。124 图形的公共边都与其中一条边完全重合，356 图形的公共边没有与其中一边完全重合。

2014-河南-47.下列给定的是纸盒的外表面，下列哪一项能由它折叠而成？



【答案】：A

【所属考试模块】判断推理

【题型】

【考点】相邻关系

【难度系数】容易

【华图老师】侯芳芳

【华图老师解析】B 选项当中三个面的公共点应该发出两条线，因此 B 项错误。

C 选项中黑色三角形的面应该与叉形的面位置互换，因此错误；D 选项中黑色三角形的面应该与斜线的面位置互换，因此错误。

2014-河南-48.下列的立体图形是立方体中挖出的一个圆锥台孔后形成的，如果从任一面剖开，以下哪一个不可能是该立体图形的截面？



【答案】：C

【所属考试模块】判断推理

【题型】

【考点】空间重构

【难度系数】中等

【华图老师】张昆

【华图老师解析】A 选项对角线截取，俯视看能够得到；B 选项垂直方向截取，俯视看能够得到；D 选项横向截取能够得到，只有 C 得不到。

2014-河南-49.从所给的四个选项中，选择最合适的一个填入问号处，使之呈现一定的规律性：



【答案】：A

【所属考试模块】判断推理

【题型】

【考点】封闭性

【难度系数】中等

【华图老师】侯芳芳

【华图老师解析】每一行三图形的规律是：开放、封闭、开放；封闭、“？”、封闭；封闭、开放、封闭；每行的第一个和第三个的封闭性一致，“？”处应该选择一个开放图形。因此选择 A 选项。

2014-河南-50.从所给的四个选项中，选择最合适的一个填入问号处，使之呈现一定的规律性：



【答案】：B

【所属考试模块】判断推理

【题型】

【考点】其他数量

【难度系数】难

【华图老师】郑淼磊

【华图老师解析】每行的三角形个数都是 2、3、4。因此“？”处应该选择有 4 个三角形的选项。

2014-河南-51.经营性资产是在生产和流通中能够为社会提供商品或劳务的资产。经营性资产的使用单位是具有法人地位的企业，其运营要以追求经济效益为原则。从会计角度看，主要指企业因盈利目的而持有，且实际也具有盈利能力的资产。根据上述定义，下列**不属于**“经营性资产”的是：

A.某电视机厂中积压的黑白电视机

B.建设中尚未投入使用的水利发电站

C.某外贸公司用于交纳税金的银行存款

D.某重点中学新购入的实验室设备和器材

【答案】：D

【所属考试模块】判断推理

【题型】

【考点】经济学类

【难度系数】容易

【华图老师】侯芳芳

【华图老师解析】D 选项主体是中学，中学不以追求经济效益为原则，不符合定义。

2014-河南-52.风险规避是指通过计划的变更来消除风险或风险发生的条件，保护目标免受风险的影响，风险规避并不意味着完全消除风险，而是规避风险可能造成的损失。一是要降低损失发生的机率，这主要是采取事先控制措施；二是要降低损失程度，这主要包括事物控制，事后补救两个方面。根据上述定义，下列**不属于**“风险规避”的是：

A.某外语培训机构近两年业务发展迅速，但缺乏配套的资金投入，因此该机构选择通过上市发行股票这一渠道来筹集资金

B.某广告公司为减少员工流失，实行了许多激励机制，包括提供更多培训机会，加大资金幅度，增加保险额度等措施

C.小李业余时间喜欢理财，他在银行的理财产品涉及很多类型，有债券、基金，有短期也有长期的，他觉得这样理财更稳健

D.某购物网站有专门的储物仓库，平时供货特定，但过节期间常供不应求，为此公司制定了一系列方案来控制货物储备和物流管理

【答案】：A

【所属考试模块】判断推理

【题型】

【考点】经济学类

【难度系数】容易

【华图老师】侯芳芳

【华图老师解析】风险规避是指降低风险发生的概率或者降低损失程度。A 选项是因为缺乏资金进而发行股票，发行股票这种行为是一种风险很高的融资行为，这种行为是完全的暴露风险，而没有规避风险。B 是事先控制，实施众多措施。C 是融资多元化，这种行为是最典型的规避风险行为。D 选项中制定方案是一种事先的行为，来规避风险。

2014-河南-53.选择性接触是指受众在接触大众传播活动之际，并不是不加区别地对待任何媒介和内容，而是更倾向于接触与自己的既有立场、观点、态度一致或者接近的加以接触，或有意无意地回避与自己既有倾向相左的媒介或内容。

根据上述定义，下列属于“选择性接触”的是：

A.旅行社推出的夕阳红系列游的团体活动受到很多退休老人的欢迎

B.减肥产品最的人群是那些正在减肥的人，而不是那些打算减肥的人

C.初中政治老师王某每天回家的第一件事就是收看新闻联播

D.赵总监推崇人性化管理，经常参加人本主义取向的心理学培训课程

【答案】：D

【所属考试模块】判断推理

【题型】

【考点】心理学类

【难度系数】容易

【华图老师】郑淼磊

【华图老师解析】选择性接触的关键信息是：更倾向于选择跟自己的既有立场相接近的相接近，只有 D 选项体现了这一点。

2014-河南-54.潜伏需求是指相当一部分消费者对某种商品或服务有强烈的需求，而现有产品或服务又无法使之满足的一种需求状况。

根据上述定义，以下最能体现“潜伏需求”的是：

A.某市所售楼盘多为三居室大户型，让想在这里安家的工薪阶层望而却步

B.某药厂推出的中药降糖保健品在部分程度上可以取代药品，常供不应求

C.目前市场上的防辐射孕妇装抵制电子产品辐射的有效率是多少尚不明确

D.新型的电动游戏机带有护眼功能，想必可以说服一些学生家长前来购买

【答案】：A

【所属考试模块】判断推理

【题型】

【考点】经济学类

【难度系数】容易

【华图老师】张昆

【华图老师解析】潜伏需求的关键信息是：现有产品或服务无法满足需求。只有 A 选项符合定义。

【纠错】潜伏需求就是想要而又不能满足需求的状态。A 是想要安家，但是没有合适的户型。B 是供不应求，不符合定义。C 是尚不明确，因此不能确定是否能够满足需求。D 没有体现出强烈的需求，而且这个护眼可以满足需求，而不是定义中的不能满足需求。

2014-河南-55.喻代是种建立于比喻基础之上的比喻体代本体的一种修辞方式。即先比喻，后用喻体代本体。喻代是比喻后的名称代换，喻体作为别名而存在，其比喻的色彩意味减弱，含蓄表达成为关键。

根据上述定义，下列各项中没有使用喻代这一修辞方式的是：

A.我吃了一惊，却见一个五十岁上下的女人站在我的面前，两手搭在髀间，张着两脚，正像一个画图仪器里细脚伶仃的圆规……然而圆规很不平，显示鄙夷的神色

B.多么熟悉的声音，多么动人的曲子，去年春节文娱晚会上因这支歌而被同学们昵称为“李谷二”，她的声音，我一下子就能听出来

C.他走了，像只风筝，在山坡上摇呀摇，弯弯曲曲的白线越放越长，到底放到头了，那儿是山顶，是和天连着的地方，“风筝”停了，他知道这条白线线还拴着一颗心呢

D.那外国人想雇我的驴去游山东，我要五块钱。他嫌贵。你嫌贵，我还嫌你胖呢。胖的像大白熊，别压坏了我的驴。讲来讲去，大白熊答应我的价钱，骑着驴去逛了半天

【答案】：B

【所属考试模块】判断推理

【题型】

【考点】其他定义

【难度系数】容易

【华图老师】郑淼磊

【华图老师解析】喻代的关键信息是：以喻体代替本体的一种修辞方式。只有 B 没有将喻体代替本体。

【纠错】A 选项中圆规是喻体，代替本体女人；C 选项中喻体是风筝，代替本体“他”。D 选项中喻体是大白熊，代替本体外国人。

2014-河南-56.著作人身权，又称著作精神权，指著作权人对其作品所享有的各种与人身相联系或者密不可分而又无直接财产内容的权利，是华图老师通过创作表现个人风格的作品而依法享有获得名誉、声望和维护作品完整性的权利。著作财产权、又称著作经济权，是著作人身权的对称，是指著作权人自己使用或者授权他人以一定方式使用作品而获得物质利益的权利。

根据上述定义，下列说法正确的是：

A.某知名网络小说作家要求出版社使用其真实姓名出版其作品，则该作家行使的是著作人身权

B.画家王某将自己的画作以高价卖给了姜某，则姜某获得了该画作的著作财产权
C.某知名舞蹈家创作的舞蹈深受群众喜爱，不少人纷纷模仿并进行商业演出，该舞蹈家要求停止这一侵权行为，则她行使的是著作人身权
D.某剧作家创作的电视剧因深受观众喜爱而被翻拍，该剧作家要求电视剧制作方不得修改故事的结局，则他行使的是著作财产权

【答案】：A

【所属考试模块】判断推理

【题型】

【考点】法律法规类

【难度系数】容易

【华图老师】侯芳芳

【华图老师解析】B 选项应该是王某获得了该作家的著作财产权；C 选项中是行驶的著作财产权；D 选项中行使得是著作人身权。

2014-河南-57.姑息治疗是指对那些治愈性治疗无望或不能接受治愈性治疗的病人采取完全的主动的医疗和护理，控制疼痛及有交症状，并对心理、社会和精神问题予以重视。其目的是为病人和家属赢得最好的生活质量。姑息治疗同样适用于早期肿瘤病人，将姑息治疗与抗肿瘤治疗相结合。
根据上述定义，下列不属于姑息治疗的是：
A.某患者因病情恶化且年老体衰，无法翻身，身体生了褥疮，口腔也有霉菌感染，护士为其洗澡擦身，并做了口腔清洁
B.某患者因为癌症晚期，且自身状况差无法进行抗癌治疗，医生认为患者已没有治疗价值，劝患者回家休养
C.某年轻患者刚结婚便被诊断为乳腺癌，情绪非常激动，拒绝接受治疗，
D.某患者手术后严重疼痛，无法入睡，医生给他安置了止疼泵，并给予一定的镇静药，让患者能好好休息

【答案】：D

【所属考试模块】判断推理

【题型】

【考点】其他定义

【难度系数】容易

【华图老师】侯芳芳

【华图老师解析】选项主体与“治疗无望或不能接受治愈性治疗的病人”的主体不符。

2014-河南-58.知情同意原则是指临床医师在为病人作出诊断和治疗方案后，必须向病人提供包括诊断结论、治疗决策、病情预后及诊治费用等方面真实、充分的信息，尤其是诊疗方案的性质、作用、依据、损伤、风险、不可预测的意外及其他可供选择的诊疗方案及其利弊等信息，使病人或家属经深思熟虑自主作出选择，并以相应方式表达其接受或拒绝此种诊疗方案的意愿和承诺；在得到患方明确承诺后，才可最终确定和实施由其确认的诊治方案。

根据上述定义，下列违反了知情同意原则的是：

A.医生向白血病患儿的家属交代了骨髓移植手术的作用、风险、预后及花费等情况，家属在讨论后，决定在手术同意书上签字

B.医生向患者交代了目前患者可能选择的两种方案，但患者和家属由于文化水平低，并未听懂，因此让医生替他们做决定

C.某患者在进行检查前，医生将检查的用处以及可能存在的风险向患者告知，患者表示清楚，但非常关心检查的费用是否报销，在得知是自费检查后，拒绝了该项检查

D.某患者在化疗前，医生提供了两种可供选择的方案，一种为效果较好但昂贵的进口药，一种是效果稍差但便宜的国产药，家属和患者的意见不一致，请医生帮他们拿主意，在医生的耐心解释下，患者与家属终于达成了共识

【答案】：B

【所属考试模块】判断推理

【题型】

【考点】法律法规类

【难度系数】容易

【华图老师】侯芳芳

【华图老师解析】知情同意原则的关键信息是：医师最终确定和实施的诊治方案必须是病人或家属经过深思熟虑自主作出的选择。B 选项中的方案不是病人或家属自主作出的选择，不符合定义。

2014-河南-59.心理记账是人们在心理上对结果进行分类、编码、估价和预算等的过程。消费者在决策时可能根据不同的任务进行相应的心理记账。

根据上述定义，下列不属于典型心理记账的是：

A.损失 10 元钱给人心理带来的痛苦要比获得 10 元奖金带来的高兴要强烈

B.工会发放福利时，不再发实物而改发购物卡以使职工有更多的自由选择

C.相比丢了 10 元钱的人，丢了电影票的人更不可能会掏钱买票去看电影

D.王某出差常选星级酒店，因为它比旅馆更可能提供免费网络和自助早餐

【答案】：B

【所属考试模块】判断推理

【题型】

【考点】心理学定义

【难度系数】容易

【华图老师】张昆

【华图老师解析】心理记账的关键信息是：在心理上对结果进行分类、编码、估价和预算的过程；A 选项只是对两个事物进行比对，并不是对结果进行分类，不符合定义。【纠错】心理记账的主体是人们行为是分类、编码、估价和预算。A 比较了损失 10 元钱和获得 10 元奖金的不同，是一种分类、估价。D 体现了估价与预算，认为三星级酒店更划算。C 选项比较了丢失 10 元钱和丢电影票的不同，是一种分类和估价。

2014-河南-60. 诱导运动是一种视错觉，即观察者知觉到某个物体在运动，而实际上该物体没有发生空间移动，只是由于其他物体的运动使被观察物体看起来好像在运动。

根据上述定义，下列属于诱导运动的是：

A. 在没有月光的夜晚仰望天空，学得星星好像在动

B. 电影院里播放的精彩电影

C. 月亮在云彩后面穿行

D. 注视飞速开过的火车之后，会觉得附近的树木会向相反方向运动

【答案】：C

【所属考试模块】判断推理

【题型】

【考点】其他定义

【难度系数】容易

【华图老师】侯芳芳

【华图老师解析】诱导运动的关键词有：（1）知觉到某个物体在运动；（2）实际上由于其他物体的运动使得被观察物体看起来好像在运动。D 选项知觉树木在运动，实际上是由于火车的运动使得树木看起来在运动，符合定义。

【纠错】诱导运动是一种错觉，感觉物体在动，其实是参照其他物体的运动感觉被观察的物体好像在动。A 没有其他物体，即参照物。B 是没有错觉。C 是错觉，是云彩在动，而月亮没动。D 项是之后，与定义不一致。

2014-河南-61. 荆棘 ：困难

A. 布衣 ：学生

B. 折柳 ：惜别

C. 心腹 ：信任

D. 桎梏 ：束缚

【答案】：D

【所属考试模块】判断推理

【题型】

【考点】象征义

【难度系数】较易

【华图老师】侯芳芳

【华图老师解析】荆棘：困难是近义词，荆棘象征困难，且荆棘是名词。D 选项桎梏是中国古代的一种刑具，在手上的戴的为梏，在脚上戴的为桎；桎梏象征束缚。且桎梏是名字。

【纠错】A 选项中“布衣”指平民百姓的最普通的廉价衣服，象征平民，与学生没有关系，排除；B 选项中折柳象征惜别，但是折柳是动词，不符合，排除；C 选项中亲信指亲信的人，不是象征信任，而是值得信任。

2014-河南-62. 戒烟 ：疾病

A. 酒驾 ：事故

B. 核对 ：差错

C. 过失 ：反思

D. 斟酌：顾虑

【答案】：B

【所属考试模块】判断推理

【题型】

【考点】主宾关系

【难度系数】较易

【华图老师】侯芳芳

【华图老师解析】戒烟能够减少疾病；核对能够减少差错。

【纠错】A 选项酒驾是增加事故不是减少；C 选项出现过失应该反思，不是减少；D 选项斟酌能够消除顾虑，不是减少。

2014-河南-63. 照片 ：留念

A. 文件 ：机密

B. 古董 ：珍藏

C. 日记 ：记载

D. 书籍 ：查阅

【答案】：C

【所属考试模块】判断推理

【题型】

【考点】对应关系

【难度系数】较易

【华图老师】侯芳芳

【华图老师解析】照片用于留念，且前一词词性为名词后一词为动词，日记用于记载，词性也一致。B 和 D 是谓宾关系。故答案选 C。

2014-河南-64. 药物 ：胶囊

A. 桌椅 ：桌面

B. 电脑 ：屏幕

C. 书本 ：封面

D. 物品 ：木箱

【答案】：D

【所属考试模块】判断推理

【题型】

【考点】主宾关系

【难度系数】较易

【华图老师】侯芳芳

【华图老师解析】胶囊可以装药物，木箱可以装物品。

2014-河南-65. 南征北战 ：东讨西伐

A. 万紫千红 ：姹紫嫣红

B. 古往今来 ：天南地北

C. 朝三暮四 ：喜新厌旧

D. 左顾右盼 ：东张西望

【答案】：D

【所属考试模块】判断推理

【题型】

【考点】其他类比

【难度系数】较易

【华图老师】侯芳芳

【华图老师解析】南征北战中的征和战都是动词，东讨西伐中的讨和伐都是动词；D 选项中左顾右盼的顾和盼是动词，东张西望中的张和望是动词。

2014-河南-66. 居住 ：居民

A. 乞讨 ：流浪者

B. 吝啬 ：守财奴

C. 顺从 ：独裁者

D. 继承 ：继承人

【答案】：D

【所属考试模块】判断推理

【题型】

【考点】条件关系

【难度系数】较易

【华图老师】

【华图老师解析】居住是居民的必要条件；继承是继承人的必要条件。

2014-河南-67. 抑制 ：热情

A. 滋润 ：喉咙

B. 分散 ：注意

C. 消除 ：声音

D. 反转 ：方向

【答案】：B

【所属考试模块】判断推理

【题型】

【考点】动宾关系

【难度系数】较易

【华图老师】侯芳芳

【华图老师解析】抑制热情是动宾关系，且是减少热情，但是并不是完全没有热情；分散注意是动宾关系，且是减少注意，并不是完全没有注意。

【纠错】C 选项消除声音是动宾关系，但是消除是完全没有，排除。

2014-河南-68. 分水岭 对于（　　），相当于（　　）对于 水稻

A. 山岭 :大米

B. 地质 :节气

C. 界线 :作物

D. 回归线 :青稞

【答案】: D

【所属考试模块】判断推理

【题型】

【考点】反对关系

【难度系数】较易

【华图老师】张昆

【华图老师解析】分水岭与回归线是反对关系，青稞与水稻也是反对关系。

2014-河南-69. 计算之于（　），相当于 实验之于（　）

A. 推理 :逻辑

B. 物理 :天文

C. 数学 :化学

D. 大脑 :助手

【答案】: C

【所属考试模块】判断推理

【题型】

【考点】动宾关系

【难度系数】较易

【华图老师】张昆

【华图老师解析】数学需要计算，化学需要实验

2014-河南-70. （　）对于 汽车，相当于 开关 对于（　）

A. 轮胎 :电门

B. 汽油 :电灯

C. 飞机 :电池

D. 钥匙 :电视

【答案】: D

【所属考试模块】判断推理

【题型】

【考点】主宾关系

【难度系数】较易

【华图老师】张昆

【华图老师解析】钥匙启动汽车，开关启动电视

2014-河南-71.噬菌体是一种病菌，它能够“捕食”细菌。目前随着医疗中植入技术的发展，越来越多的患者接受着诸如导尿管、心脏支架等医学植入装置，但随之也带来了细菌感染的风险，因此一些研究人员认为如果使噬菌体吸附在植入装置材料表面，再将其放入患者体内，就可以避免植入装置引发的感染。以下哪项为真，最能削弱上述结论？

A.对植入医学装置的患者，一般通过服用抗生素来防御细菌感染

B.有细菌的场所就可能有相应噬菌体的存在，只是存在数量的差异

C.噬菌体能够攻击致病细菌，但有时也会“捕食”有益的细菌

D.一些噬菌体进入机体内后，无法适应体液环境，难以保持活性

【答案】：D

【所属考试模块】判断推理

【题型】

【考点】单观点

【难度系数】较易

【华图老师】张昆

【华图老师解析】D 不能实现达到避免感染的目的，起到削弱的作用

【纠错】削弱论证。论点是把噬菌体吸附在植入装置的材料表面，可以避免感染。A 话题不一致，说的是抗生素。B 是噬菌体的场所和数量差异，话题不一致。C 论点只关心噬菌体能不能避免感染这个功能，至于是否捕食有益细菌，并不在谈论范围内。D 是这种手段的不可行，不能实现达到避免感染的目的。

2014-河南-72.随着人们的生活和工作逐渐进入高楼大厦，人们接触日光的机会变少。研究发现，日光是合成维生素 D 的必要条件，而维生素 D 是促进钙吸收的关键因素。因此有人得出结论：现代人更容易患骨质疏松等因缺钙引起的疾病。以下哪项为真，最能质疑上述结论？

A.骨质疏松疾病患者多晒太阳就可以缓解或治愈

B.现代人饮食结构中的含钙食品比以前丰富很多

C.口服维生素 D 片是添加了促吸收剂的合成配方

D.骨质疏松症患者接触日光的时长与其他人无异

【答案】：D

【所属考试模块】判断推理

【题型】

【考点】单观点

【难度系数】较易

【华图老师】张昆

【华图老师解析】D 表明导致骨质疏松与接触日光无太大关系，有一定削弱作用
【纠错】论点是缺少阳光会导致缺钙，进而会引发骨质疏松；A 表明有阳光可以治愈，加强；B 谈到饮食结构，C 服用维生素，都与题干是无关选项

2014-河南-73.随着手机和网络的普及，人们开始随时随地获取各种信息。但有研究认为，正是因为人们接触过多信息，导致想法过多。过多想法无法实现时，人们会利用各种填充大脑。让无法实现的想法所带来的焦虑暂时不进入脑海。
根据以上描述可以推出：
A.人们的想法增多导致人们随时随地获取信息
B.人们的痛苦随着手机和网络越来越普及而增加了
C.人们的大脑有办法避开痛苦的事情
D.如果人们减少获取额外信息，就可以减少痛苦
【答案】：C
【所属考试模块】判断推理
【题型】
【考点】主题一致原则
【难度系数】较易
【华图老师】张昆
【华图老师解析】从题干得知通过手机获取大量信息，但是信息我们可以避免焦虑，所以可以推出大脑可以避开痛苦的事情
【纠错】A 从题干得知是信息多导致想法多；B 的痛苦无法从题干得知；D 无法从题干中得知

2014-河南-74.软件用户的调查显示，通常一个软件会有 1000 个用户采用，如果一个软件每天被下载安装的次数达到 55 次，这个软件的流行度会急速上升。大量用户几乎是完全根据其他用户的行为来选择安装这个软件。而很少关注其本身的内在特点。
根据以上描述可以推出：
A.网站上最流行的软件未必是最实用的软件
B.参考别人选择安装软件是不明智的
C.网站上推出的软件未必都是有用的
D.用户安装在电脑上的一些软件或许会被删除
【答案】：A
【所属考试模块】判断推理
【题型】
【考点】主题一致原则
【难度系数】较易

【华图老师】张昆

【华图老师解析】从题干可以推出，流行的、下载多的软件大家未必关注起内在特点

【纠错】B 从题干中无法推出是否明智；C 题干中无法显示出网站推出的软件

【拓展】

2014-河南-75.一些新的研究发现，短期摄入高脂食物有益心脏。研究人员在实验后期人工引发老鼠心脏缺血性伤害。类似人心脏病发作时的情况。他们发现，吃高脂食物 24 小时、1 周和 2 周的老鼠心脏组织受损状况比吃 6 周高脂食物的老鼠和“吃素”的老鼠轻 70%。研究人员认为这是由于短期摄入高脂食品可以使心脏肌肉获得更多能量，增强抵御伤害能力。他们认为，短期摄入高脂饮食或可保护心脏机能。

以下哪项为真，最能支持题干的结论？

A.如果让老鼠“吃一天荤”后改“吃素”，它们心脏抵御伤害的能力比一开始就“吃素”的老鼠强

B.高脂食物可以使人体获得进行新陈代谢等活动所必须的物质和能量

C.高脂食物中所含有的低密度脂蛋白胆固醇是人体所不可缺少的物质

D.要想降低患者心脏病风险，应注意饮食平衡，适当摄入脂肪和胆固醇

【答案】：A

【所属考试模块】判断推理

【题型】

【考点】对比试验

【难度系数】较易

【华图老师】侯芳芳

【华图老师解析】题干的论点是短期摄入高脂饮食或可保护心脏机能。A 通过对比试验说明短期摄入高脂饮食的老鼠心脏抵御伤害的能力强，与论点一致，能加强论点。

【纠错】B、C、D 选项与题干讨论话题不一致，是无关项，排除。

2014-河南-76.R 医院连续 5 年在 C 市举办的“我最满意的医院”调查中高居旁首，该医院负责人表示，这是由于该医院提供了比其他医院更加优质的导诊服务。以下哪项为真，最能支持该医院负责人的观点？

A.C 市各大医院都在导诊服务中投入了大量精力，力图提高导诊服务质量

B.C 市“我最满意的医院”调查已开展 20 年，高居榜首的均是公立医院

C.C 市共有 200 多家医院，并非所有的医院都参与了此次调查

D.与 R 医院医疗水平相当，但导诊服务不佳的排名均不如 R 医院

【答案】：D
【所属考试模块】判断推理
【题型】
【考点】单观点
【难度系数】较易
【华图老师】张昆
【华图老师解析】D 表明医疗水平相当，但是导诊服务却没有 R 好，所以和论点意思一致，有加强作用
【纠错】A、B 选项与题干讨论话题不一致，是无关项，排除；C 选项质疑了题干中的试验数据，是削弱项。
2014-河南-77.在地球构造活动频繁的时期，环非洲、南美和欧洲的新海洋盆地开始扩展，产生了新的空间。大气中大量二氧化碳与光合作用的生物发生反应，死亡的生物随后被埋在海底沉积物中，形成了富含碳元素的页岩。大气中的碳被固定下来，使得大气中二氧化碳的水平下降，减小了温室效应并降低了全球温度，这对海洋生命来说是非常严重的后果。因此科学家认为，全球变冷或变暖后果同样严重。
下列哪项为真，最能支持科学家的论断?
A.在全球变冷的 200 年后，由于频繁的火山爆发，使得固化在岩叶中的碳以二氧化碳的形式重回到大气层，部分恢复了温室效应
B.全球变暖会导致海洋生物生态危机，科学家发现在 26 万年前全球变冷的时期，海洋生物发生过类似的危机
C.大规模且长期的自然变化，或由于人类活动而造成全球温室效应在短期内的巨大改变对整个系统来说都具有冲击作用
D.科学家观察到气候变冷的发生超过几百万年，而不是几十年或几百年，这还很难和我们迅速变化的现代气候条件联系起来
【答案】：B
【所属考试模块】判断推理
【题型】
【考点】单观点
【难度系数】较易
【华图老师】张昆
【华图老师解析】B 表明全球变暖和全球变冷的后果都会出现生态危机，加强论点
【纠错】
2014-河南-78. 新学期伊始，研究生院发现有新生没有到教务处办理注册手续。

若该命题为真，则下列陈述不能确定真假的是：

Ⅰ所有新生都没有到教务处办理注册手续

Ⅱ所有新生都到教务处办理了注册手续

Ⅲ有的新生到教务处办理了注册手续

Ⅳ新生小明到教务处办理了注册手续

A. Ⅰ、Ⅱ、Ⅲ、Ⅳ

B. Ⅱ、Ⅲ、Ⅳ

C. Ⅰ、Ⅱ、Ⅲ

D. Ⅰ、Ⅲ、Ⅳ

【答案】：D

【所属考试模块】判断推理

【题型】

【考点】矛盾关系

【难度系数】较易

【华图老师】张昆

【华图老师解析】有新生没有办理为真，其确定假命题所有新生都办理，不能确定所有都没有办理是否为真，同时也不能确定有的办理，小明更不能确定

2014-河南-79. 兄弟姐妹四人，甲、乙、丙、丁。甲说：丁是最小的妹妹。乙说：兄弟姐妹中只有哥哥一个男孩。丙说：我是甲的姐姐。

如果上述都为真，以下推断正确的是：

A. 甲排行第二，是男孩；乙排行第三，是女孩

B. 乙排行第二，是女孩；丙排行第一，是女孩

C. 丙排行第二，是女孩；丁排行最小，是女孩

D. 甲排行第二，是女孩；丙排行第一，是女孩

【答案】：A

【所属考试模块】判断推理

【题型】

【考点】排除法

【难度系数】较易

【华图老师】侯芳芳

【华图老师解析】由乙：“兄弟姐妹中只有哥哥一个男孩。”可知乙不是最大的；由丙：“我是甲的姐姐”推出甲也不是最大的；丁最小且是女孩；因此丙是老大且是女孩。

甲	乙	丙	丁
		老大	老四
		女孩	女孩

乙："兄弟姐妹中只有哥哥一个男孩。"可知甲比乙大，且是男孩。

甲	乙	丙	丁
老二	老三	老大	老四
男孩	女孩	女孩	女孩

2014-河南-80. 低热量食物是指含淀粉、糖类等碳水化合物类较少的食物。通过食用低热量食品，可以有效控制能量的摄入量，避免多余能量在体内以脂肪形式储存下来。如果体重已经较重的人改为食用低热量食品，则可在保持饱腹感的同时达到减肥效果，另外，有许多人认为，低热量食物对糖尿病患者也十分有益。

以下哪项为真，最能支持上述推论？

A. 改食用低热量食物需要逐步进行，否则会引起机体代谢紊乱

B. 低热量食品可以降低超重或糖尿病患者的体重，但需要补充其它营养

C. 低热量食品可适当增加进食量，满足饱腹感，享受吃饱的乐趣

D. 研究表明低热量饮食可减少脂肪在胰脏中的沉积，恢复胰岛素的分泌

【答案】D

【所属考试模块】判断推理

【题型】

【考点】单观点

【难度系数】较易

【华图老师】张昆

【华图老师解析】D 表明低热量减少脂肪沉积，恢复胰岛素可以得知对糖尿病患者有益

【纠错】A、B、C 选项都没有提及低热量食物对糖尿病患者的作用，无关项排除。

常识判断

2014-河南-81.下列关于铅的说法错误的是：

A.铅笔芯的主要成分是铅

B.香烟中是含铅的

C.铅在人体内日积月累，不会分解

D.汽油中添加铅元素可以起到防爆的作用

【答案】A

【所属考试模块】常识判断

【题型】
【考点】科技知识
【难度系数】较难
【华图老师】燕晓阳
【华图老师解析】铅笔芯主要成分是是石墨.铅笔的笔芯是用石墨和粘土按一定比例混合制成的。铅

2014-河南-82.下列说法错误的是：

A.蓝藻对地球表面从无氧变成有氧的大气环境起了巨大作用

B.植物光合作用主要在细胞的线粒体中进行

C.呼吸作用分为有氧呼吸和无氧呼吸两种类型

D.种子植物是地球表面绿色的主体

【答案】：B
【所属考试模块】常识判断
【题型】
【考点】
【难度系数】较难
【华图老师】燕晓阳
【华图老师解析】植物的光合作用主要在叶绿体中进行，而不是线粒体中。线粒体中进行的是植物的呼吸作用，主要是有氧呼吸的第二、三阶段。故选 B

2014-河南-83.关于存款保险制度，下列说法错误的是：

A.存款保险制度起始于 20 世纪 30 年代大萧条之后的美国

B.存款保险制度有利于保护存款人的利益，提高公众对银行体系的信心

C.存款保险由存款人向存款保险公司投保

D.存款保险通常只赔偿存款人因银行倒闭而遭受的部分损失

【答案】：C
【所属考试模块】常识判断
【题型】
【考点】存款保险制度
【难度系数】适中
【华图老师】陈君敏
【华图老师解析】A 选项说明了存款保险制度形成的时间；B 选项说明了存款保险制度的积极作用；C 选项存款保险的保险人不是投保人；D 正确。所以选 C。

2014-河南-84.关于天体及其运行，下列表述错误的是：

A.天球是为了确定天体位置和运动而假想的圆球

B.在火星和木星轨道之间存在一个小行星带

C.黄道面是指月球绕地球运行的轨道面

D.星座是指在天球上投影位置相近的恒星群落

【答案】：C
【所属考试模块】常识判断

【考点】天体
【难度系数】较难
【华图老师】陈君敏
【华图老师解析】A、B、D 等选项正确描述了天体及其运行的常识，只有 C 选项的错误在于搞错了运行主体，应该是黄道面(ecliptic plane)是指地球绕太阳公转的轨道平面，与地球赤道面交角为 23° 26’。

2014-河南-85.关于海水及其运动，下列说法错误的是：

A.海水的冰点温度比淡水低

B.北海道渔场位于寒流与暖流的交汇处

C.波罗的海是世界上盐度最高的海域

D.波浪、潮汐和洋流是海水运动的主要形式

【答案】：C
【所属考试模块】常识判断
【考点】海水运动
【难度系数】较难
【华图老师】陈君敏
【华图老师解析】红海是世界上盐度最高的海域；波罗的海是世界上盐度最低的海域。故 C 项错误。

2014-河南-86.下列关于石灰的说法错误的是：

A.生石灰通常可以作为食品干燥剂

B.澄清石灰水放置在空气中易变浑浊

C.汉白玉与石灰石的主要成分相同

D.“烈火焚烧若等闲”指熟石灰的高温煅烧

【答案】D
【所属考试模块】常识判断
【难度系数】
【华图老师解析】“烈火焚烧若等闲”指石灰石的高温煅烧。所以 D 项错误。

2014-河南-87.关于中国地理，下列说法错误的是：

A.九寨沟国家地质公园以雅丹地貌闻名

B.藏羚羊主要生活在可可西里国家级自然保护区

C.张家界国家森林公园处于武夷山脉的腹地

D.三江并流风景名胜区已被列入《世界遗产名录》

【答案】A
【所属考试模块】常识判断
【难度系数】
【华图老师解析】九寨沟处于四川盆地向青藏高原过渡的边缘地带，属松潘，甘孜地槽区，恰好位于我国第二级地貌阶梯的坎前部分，在地貌形态变化最大的裂点线上，地势南高北胝，有高山，峡谷，湖泊，瀑布，溪流，山间平原等多种形态，其地貌属高山狭谷类。故本题选 A。

2014-河南-88.下列哪组不属于夺命“急症”?

A.肺栓塞、哮喘

B.冠心病、毒品过量

C.脑出血、急性坏死性胰腺炎

D.阑尾炎、腹膜炎

【答案】D

【所属考试模块】常识判断

【难度系数】

【华图老师】

【华图老师解析】阑尾炎并非夺命“急症”。

2014-河南-89.下列哪项不在中国地形的第二阶梯上?

A.秦岭　　B.呼伦贝尔高原

C.鄂尔多斯高原　　D.巴颜克拉山

【答案】D

【所属考试模块】常识判断

【华图老师解析】第一级阶梯：我国西南部的青藏高原，平均海拔在 4000 米以上，主要有昆仑山，巴颜喀拉山，横断山脉。

2014-河南-90.关于农作物，下列说法正确的是：

A.中国是最早栽培大豆的国家

B.玉米是通过丝绸之路传入中国的

C.花生是世界上最主要的油料作物

D.印度是世界上最大的稻米出口国

【答案】A

【所属考试模块】常识判断

【难度系数】

【华图老师解析】玉米是通过新航路的开辟传到中国，故 B 项错误。油菜是世界上最主要的油料作物。泰国是世界上最大的稻米出口国。故 D 项错误。

2014-河南-91.关于下列各组人物说法错误的是：

A 苏格拉底、柏拉图和亚里士多德被称为“古希腊三贤”

B 颜回、曾子都属于孔子七十二门徒

C 荀子及其弟子韩非子是法家学派的代表人物

D 康有为、梁启超都是“公车上书”的发起人

【答案】C

【所属考试模块】常识判断

【难度系数】

【华图老师解析】荀子属于儒家学派代表人。故 C 项错误。

2014-河南-92.下列体育人物与其擅长领域对应错误的是：

A 罗尼·奥沙利文：斯诺克台球

B.泰格·伍兹：高尔夫

C.罗杰·费德勒：网球

D.拉菲尔·纳达尔：棒球

【答案】D

【所属考试模块】常识判断

【难度系数】

【华图老师解析】拉菲尔·纳达尔（Rafael Nadal，1986 年 6 月 3 日—），西班牙职业网球运动员。截止 2013 年，纳达尔获得十三个大满贯，并获得过奥运会单打冠军，是现役男运动员中，唯一的金满贯得主，是“体育界的奥斯卡奖”——劳伦斯奖最佳男运动员获得者。

2014-河南-93.关于亚洲政坛女性首脑，下列说法错误的是：

A.科拉松·阿基诺夫人是亚洲首位女总统

B.阿罗约曾任菲律宾总统之职

C.朴槿惠的父亲曾任韩国总统

D.英拉·西那瓦是马来西亚总理

【答案】D

【所属考试模块】常识判断

【难度系数】

【华图老师解析】英拉·西那瓦不是马来西亚的，是泰国总理

2014-河南-94.下列事件与相关人物对应错误的是：

A.三藩之乱：吴三桂、康熙

B 七国之乱：吴王刘濞、汉景帝

C 八王之乱：苻坚、谢玄

D 安史之乱：郭子仪、史思明

【答案】C

【所属考试模块】常识判断

【难度系数】

【华图老师解析】八王之乱是西晋时统治阶层历时 16 年（291～306）之久的内乱。这场权利角逐中核心人物有汝南王司马亮、楚王司马玮、赵王司马伦、齐王司马冏、长沙王司马乂、成都王司马颖、河间王司马颙、东海王司马越等八王。谢玄（343—388 年），字幼度。陈郡阳夏（今河南太康）人。谢裒之孙，谢奕之子，谢安之侄。东晋时期军事家。谢玄有经国才略，善于治军。早年为大司马桓温部将。故本题选 C

2014-河南-95.关于我国公务员制度，下列叙述正确的是：

A.正在接受纪律审查的公务员不得辞去公职

B.我国公务员培训基地是党校

C.公务员对降职不服，可以向人民法院提出申诉

D.公务员考核的基本内容包括德、能、勤、绩、才

【答案】A

【所属考试模块】常识判断

【难度系数】
【华图老师解析】《公务员法》规定：第八十一条 公务员有下列情形之一的，不得辞去公职：
（一）未满国家规定的最低服务年限的；
（二）在涉及国家秘密等特殊职位任职或者离开上述职位不满国家规定的脱密期限的；
（三）重要公务尚未处理完毕，且须由本人继续处理的；
（四）正在接受审计、纪律审查，或者涉嫌犯罪，司法程序尚未终结的；
（五）法律、行政法规规定的其他不得辞去公职的情形。
故 A 项正确
第六十条 机关根据公务员工作职责的要求和提高公务员素质的需要，对公务员进行分级分类培训。国家建立专门的公务员培训机构。机关根据需要也可以委托其他培训机构承担公务员培训任务。所以 B 项错误。
第九十条 公务员对涉及本人的下列人事处理不服的，可以自知道该人事处理之日起三十日内向原处理机关申请复核；对复核结果不服的，可以自接到复核决定之日起十五日内，按照规定向同级公务员主管部门或者作出该人事处理的机关的上一级机关提出申诉；也可以不经复核，自知道该人事处理之日起三十日内直接提出申诉。所以 C 项错误。
第三十三条 对公务员的考核，按照管理权限，全面考核公务员的德、能、勤、绩、廉，重点考核工作实绩。故选项 D 错误。
2014-河南-96.下列思想流派与产生时代对应错误的是：
A.儒学——汉代　　B.玄学——魏晋
C.理学——宋代　　D.心学——明代
【答案】A
【所属考试模块】常识判断
【难度系数】
【华图老师解析】儒家学说，亦称儒学，起源于东周春秋时期，和“道家”、“墨家”“法家”“阴阳家”等诸子百家之一。
2014-河南-97.关于政治思想，下列表述错误的是：
孟德斯鸠提出三权分立学说
伏尔泰最早提出社会契约论的思想
柏拉图主张建立哲学王统治的国家
让·布丹提出君主主权学说
【答案】B
【所属考试模块】常识判断
【难度系数】
【华图老师解析】卢梭（1712～1778）是 18 世纪法国启蒙运动杰出的政治思想家、文学家。他的才思文藻风靡了当时的整个欧洲，并为后人留下了一系列划时代的巨著。《社会契约论》又译作《民约论》是他最为杰出的代表作之一，被誉为“人类解放的第一个呼声，世界大革命的第一个煽动者”。故 B 项错误
2014-河南-98.关于我国的农民工现象，下列说法错误的是：

农民工是我国特有的城乡二元体制的产物

“新生代农民工”主要指 80 后、90 后，目前在农民工群体中占一半以上

从输出地看，中部地区输出农民工最多，西部次之，东部最少

D.近年来跨省流动农民工所占比重继续下降

【答案】C

【所属考试模块】常识判断

【难度系数】

【华图老师解析】从输出地看，东部地区输出农民工最多，中部次之，西部最少。所以 C 项错误

2014-河南-99.根据民事诉讼法的规定，下列说法错误的是：

人民法院调解好的离婚案件，可以不制作调解书

修改后的民事诉讼法增加了“公益诉讼”的内容

修改后的民事诉讼法规定，当事人所在社区可推荐公民作为诉讼代理人

人民法院可以根据实际情况，决定采取传真的方式送达判决书

【答案】D

【所属考试模块】常识判断

【难度系数】

【华图老师解析】《关于修改〈中华人民共和国民事诉讼法〉的决定》中规定：

第八十四条　送达诉讼文书必须有送达回证，由受送达人在送达回证上记明收到日期，签名或者盖章。

受送达人在送达回证上的签收日期为送达日期。

第八十五条送达诉讼文书，应当直接送交受送达人。受送达人是公民的，本人不在交他的同住成年家属签收；受送达人是法人或者其他组织的，应当由法人的法定代表人、其他组织的主要负责人或者该法人、组织负责收件的人签收；受送达人有诉讼代理人的，可以送交其代理人签收；受送达人已向人民法院指定代收人的，送交代收人签收。

受送达人的同住成年家属，法人或者其他组织的负责收件的人，诉讼代理人或者代收人在送达回证上签收的日期为送达日期。

根据《民事诉讼法》第五十八条关于当事人所在社区、单位以及有关社会团体推荐的公民可以接受当事人委托作为诉讼代理人。

第八十七条　经受送达人同意，人民法院可以采用传真、电子邮件等能够确认其收悉的方式送达诉讼文书，但判决书、裁定书、调解书除外。

采用前款方式送达的，以传真、电子邮件等到达受送达人特定系统的日期为送达日期。

故 D 项错误。

2014-河南-100.下列犯罪嫌疑人、被告人中，哪个人不适用取保候审？

有证据证明甲犯故意杀人罪，有可能被判十年以上有期徒刑

乙在逮捕后侦查羁押期限届满仍需继续查证

丙涉嫌侮辱罪被起诉

丁被逮捕后发现其怀孕 3 个月

【答案】A
【所属考试模块】常识判断
【难度系数】
【华图老师】娄亚楠
【华图老师解析】不适用取保候审的条件：取保候审的适用条件，刑事诉讼法第五十一条明确规定，人民法院、人民检察院和公安机关对于有下列情形之一的犯罪嫌疑人、被告人，可以取保候审：(一)可能判处管制、拘役或者独立适用附加刑的;(二)可能判处有期徒刑以上刑罚，采取取保候审不致发生社会危险性的。

不能适用取保候审

(1)人民检察院对于严重危害社会治安的犯罪嫌疑人，以及其他犯罪性质恶劣、情节严重的犯罪嫌疑人不得取保候审。

(2) 对累犯、犯罪集团的主犯，以自伤、自残办法逃避侦查的犯罪嫌疑人，危害国家安全的犯罪、暴力犯罪，以及其他严重犯罪的犯罪嫌疑人，不得取保候审

第五部分　　资料分析

所给出的图、表、文字或综合性资料均有若干个问题要你回答。你应根据资料提供的信息进行分析、比较、计算和判断处理。

请开始答题：

一、根据以下资料，回答 101~105 题。

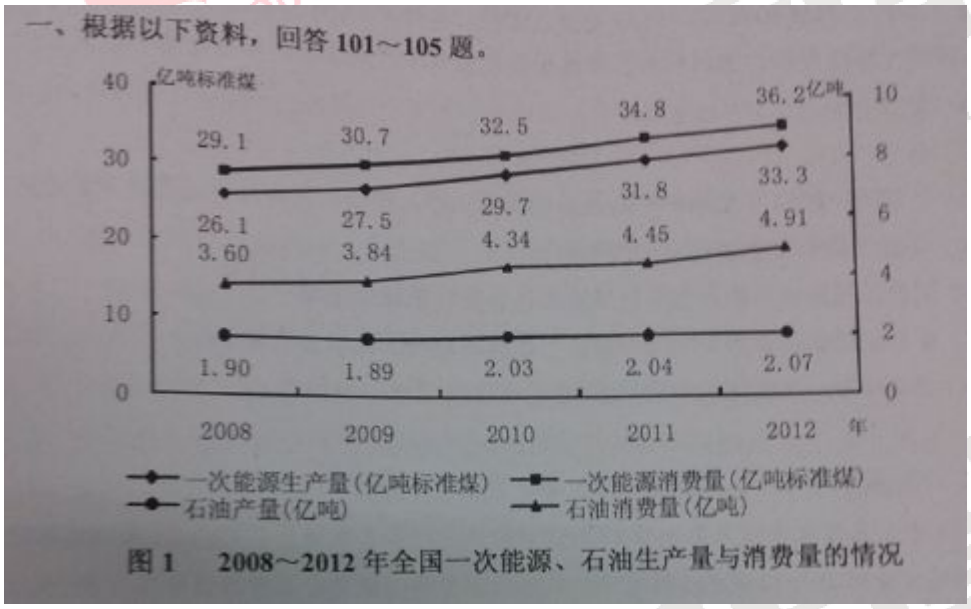

图 1　2008～2012 年全国一次能源、石油生产量与消费量的情况

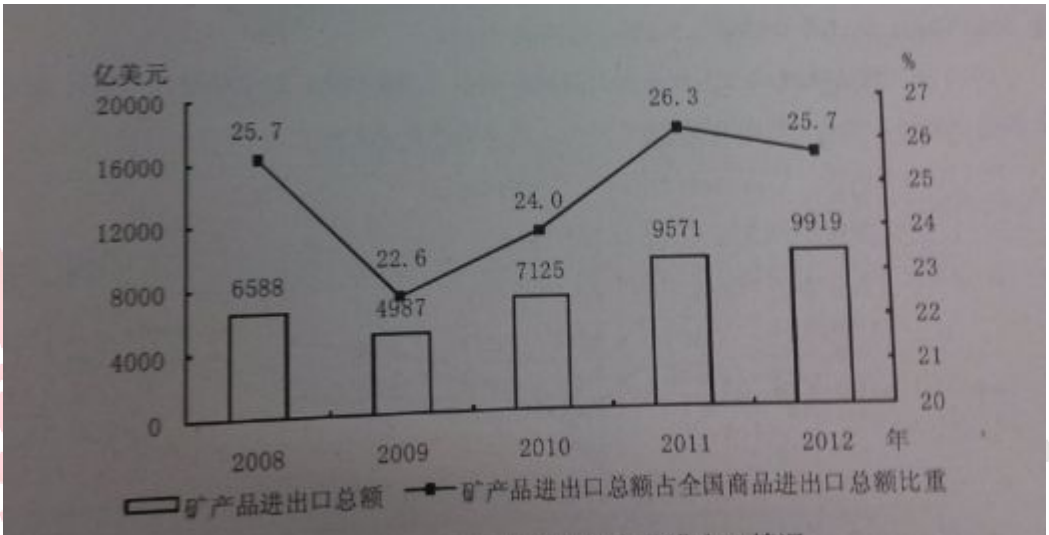

图 2　2008～2012 年全国矿产品进出口情况

101. 2009～2012 年间一次能源生产量增速最快的一年是：

A. 2009 年　　B. 2010 年

C. 2011 年　　D. 2012 年

【答案】B

【考点】增长率

【难度系数】容易

【华图老师】王丽冰

【华图老师解析】09 年增速 $\frac{1.4}{26.1}$，10 年增速 $\frac{2.2}{27.5}$，11 年增速 $\frac{2.1}{29.7}$，12 年增速 $\frac{1.5}{31.8}$，先排除 C，D；直除看首位，则选择 B

【技巧】直除　估算

102. 图中一次能源消费量与生产量差值最大的一年，该差值为多少亿顿标准煤？

A. 2.9　　B. 3.0

C. 3.1　　D. 3.2

【答案】D

【题型】

【考点】简单计算之直接读数

【难度系数】容易

【华图老师】王丽冰

【华图老师解析】仔细观察图形，可以看出 08 年差值为 3 亿吨标准煤,09 年差值为 3.2 亿吨标准煤,10 年差值为 2.9 亿吨标准煤,11 年差值为 3 亿吨标准煤，12 年差值为 2.9 亿吨标准煤。因此，本题答案为 D 选项。

【技巧】简单计算

103.2009~2012 年间全国商品进出口总额最高年份，矿产品进出口总额比上年：

A.上升了 348 亿美元　　B.下降了 1601 亿美元

C.上升了 2138 亿美元　　D.上升了 2446 亿美元

【答案】A

【题型】

【考点】简单计算

【难度系数】容易

【华图老师】王丽冰

【华图老师解析】全国商品进出口总额＝$\frac{\text{矿产品进出口总额}}{\text{其占全国商品进出口总额的比重}}$，观察图形可知２０１２年的全国商品进出口总额最高，则２１０２年的矿产品进出口总额比２０１１高９９１９－９５７１＝３４８，，因此，本题答案为Ａ选项。

【技巧】简单计算

104.2008~2012 年间，全国石油消费量超过全国石油产量 2 倍的年份有几个？

A.2　　B.3

C.4　　D.5

【答案】C

【题型】

【考点】直接读数

【难度系数】容易

【华图老师】王丽冰

【华图老师解析】经观察图形可以看出只有０８年的３．６不是１．９的两倍，其余均为 2 倍以上，则选择Ｃ。

105.关于 2009~2012 年全国矿产品贸易和能源生产、消费，能够从上述资料中推出的是：

A.石油产量年均增速超过一次能源生产量

B.矿产品进出口总额占全国商品进出口总额比重逐年递增

C.矿产品进出口总额最低的年份，一次能源消费同比增量也是最低

D.平均每年一次能源产量超过 30 亿顿标准煤

【答案】D

【题型】

【考点】综合分析

【难度系数】容易

【华图老师】王丽冰

【华图老师解析】A．石油产量年均增速$(1+r_1)^4=\frac{2.07}{1.90}$，一次能源生产量年均增速$(1+r_2)^4=\frac{33.3}{26.1}$，很明显$\frac{33.3}{26.1}\rangle\frac{2.07}{1.90}$，则$r_2\rangle r_1$，故错误。

B．结合图 2 很明显可以看出 2 0 1 2 是下降的，故错误。

C．结合图 2 矿产品进出口总额最低的年份是 0 9 年，2 0 0 9 — 2 0 1 2 一次能源消费同比增量最低的是 1 2 年，故错误。

D. 2 0 0 9 — 2 0 1 2 平均每年一次能源生产量为$\frac{27.5+29.7+31.8+33.3}{4}=30.575$，大于 30，则选择 D。

【技巧】先看容易计算的

二、根据以下资料，回答 106~110 题

2012 年，某省规模以上工业增加值 10875 亿元，比上年增加 7.1%，月度增速从 1~2 月的 2.9%回升到 10~12 月的 10%以上。大型、中型、小微型企业增加值分别为 3074、3217、4584 亿元，比上年分别增长 8.2%、6.8%和 6.7%。

2012 年，该省规模以上工业企业主营业务收入 56730 亿元，比上年增长 3.5%，增速比全国低 7.5 个百分点；利润总额 2900 亿元，比上年下降 6.1%。

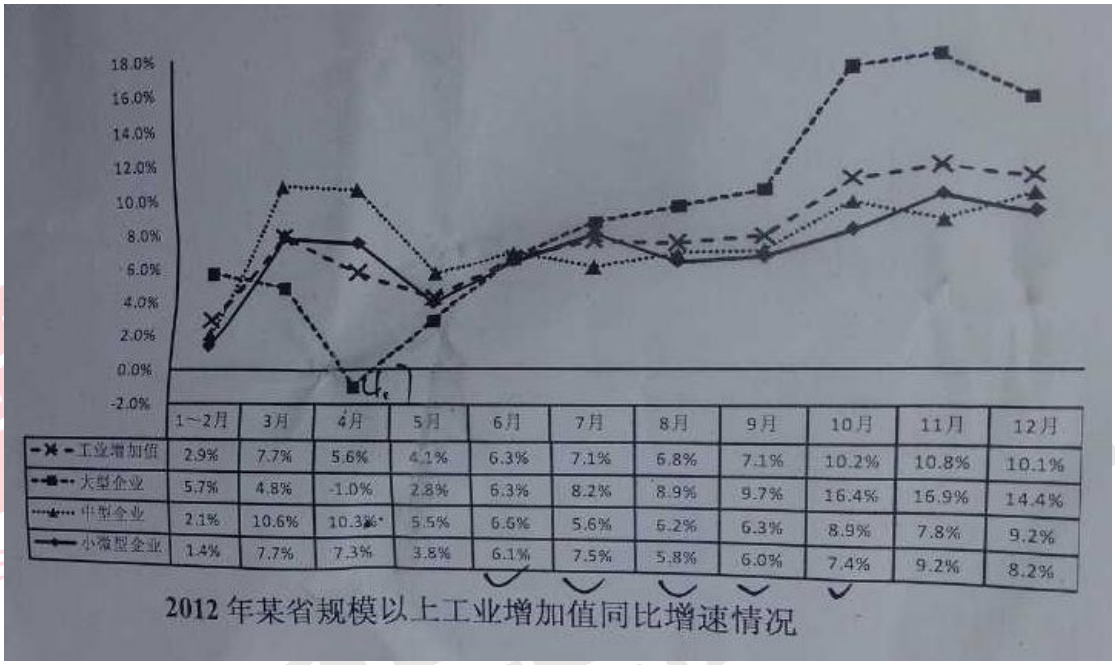

	1～2月	3月	4月	5月	6月	7月	8月	9月	10月	11月	12月
工业增加值	2.9%	7.7%	5.6%	4.1%	6.3%	7.1%	6.8%	7.1%	10.2%	10.8%	10.1%
大型企业	5.7%	4.8%	-1.0%	2.8%	6.3%	8.2%	8.9%	9.7%	16.4%	16.9%	14.4%
中型企业	2.1%	10.6%	10.3%	5.5%	6.6%	5.6%	6.2%	6.3%	8.9%	7.8%	9.2%
小微型企业	1.4%	7.7%	7.3%	3.8%	6.1%	7.5%	5.8%	6.0%	7.4%	9.2%	8.2%

2012 年某省规模以上工业增加值同比增速情况

106. 与 2011 年相比，2012 年该省规模以上工业增加值约增加了多少亿元？

A. 600　B. 720　C. 840　D. 960

【答案】B

【题型】

【考点】增长量

【难度系数】容易

【华图老师】王丽冰

【华图老师解析】增长量$=\dfrac{\text{现期量}}{1+\dfrac{1}{\text{增长率}}}=\dfrac{10875}{1+\dfrac{1}{7.1\%}}=\dfrac{10875}{1+\dfrac{1}{\frac{1}{15}}}\approx 720$

【技巧】凑整

107. 2012 年 3~10 月间，中型企业增加值增速和规模以上工业增加值总体增速差异最大的月份是：

A. 4 月　B. 6 月　C. 8 月　D. 11 月

【答案】A

【题型】

【考点】简单计算

【难度系数】容易

【华图老师】王丽冰

【华图老师解析】只需观察４，６，８和１０月的数据。结合图形观察，只有４月的１６．３％－５．６％＝１０．７％是最大的。故选择Ａ。

【技巧】简单计算

108.2012 年 3~10 月见，三类企业工业增加值同比增速均超过 5%的月份有几个？

A.5　B.6　C.7　D.8

【答案】A

【题型】

【考点】直接读数

【难度系数】容易

【华图老师】王丽冰

【华图老师解析】结合图形可知超过５％的月份分别是，６，７，８，９，１０．则选择Ａ。

【技巧】

109.与 2011 年相比，2012 年全国规模以上工业企业主营业务收入：

A.下降了 4%　B.上升了 4%

C.上升了 7.5%　D.上升了 11%

【答案】D

【题型】

【考点】简单计算

【难度系数】容易

【华图老师】王丽冰

【华图老师解析】该省规模以上工业企业主营业务收入的增速为３．５％，比全国底７．５个百分点，则可知全国的为３．５％＋７．５％＝１１％。故选择Ｄ。

【技巧】

110.以下关于该省 2012 年规模以上工业发展状况的描述与资料相符的是：

A.小微型企业对 10~12 月的月度同比增速回升拉动作用最大

B.全年小微型企业增加值同比增量低于中型企业

C.规模以上工业企业主营业务利润率高于上年水平

D.第三季度大型企业工业增加值同比增速高于其他两类企业

【答案】D

【题型】

【考点】综合分析

【难度系数】较难

【华图老师】王丽冰

【华图老师解析】A。缺乏三类企业的基期量数据，无法比较，故错误

B．增长量比较，两者的增长率基本相同，而小微型企业的现期量大于中型企业，故全年小微型企业增加值同比增量大于中型企业，则错误。

C．２０１２年规模以上工业企业主营业务利润率为$\frac{2900}{56730}$，２０１１年的为$\frac{2900}{56730}\times\frac{1+3.5\%}{1-6.1\%}$，很明显２０１２年的高于２０１１年的，则错误。

D. 直接读取数据即可。

三、根据以下资料，回答 111~115 题

2013 年全国 1～5 月保险业经营状况

	经营状况（亿元）					5 月同比增速（%）
	1 月	2 月	3 月	4 月	5 月	
保险保费收入	2012	1382	1756	1316	1277	10
1．财产险	612	339	562	530	500	12
2．人身险	1400	1043	1195	786	777	9
（1）寿险	1255	944	1025	669	655	8
（2）健康险	106	76	113	76	83	14
（3）人身意外伤害险	40	23	56	40	39	22
保险赔付支出	501	447	540	505	487	32
1．财产险	281	194	255	254	266	16
2．人身险	220	252	285	252	220	58
（1）寿险	175	224	245	212	180	68
（2）健康险	36	22	32	31	32	29
（3）人身意外伤害险	9	7	9	8	8	11
业务及管理费	185	166	195	189	190	21

111. 2013 年 1~5 月，保险业平均每月业务及管理费用约为多少亿元？

A. 180　B. 185

C. 190　D. 195

【答案】B

【题型】

【考点】简单计算

【难度系数】容易

【华图老师】王丽冰

【华图老师解析】$\frac{185+166+195+189+190}{5}=185$，则选择 B。

【技巧】

112.2013 年 3 月，人身险的三个险种保费收入环比增速排序正确的是：

A.人身意外伤害险＞寿险＞健康险

B.健康险＞寿险＞人身意外伤害险

C.健康险＞人身意外伤害险＞寿险

D.人身意外伤害险＞健康险＞寿险

【答案】D

【题型】

【考点】增长率比较

【难度系数】容易

【华图老师】王丽冰

【华图老师解析】增长率比较可以直接比较$\frac{现期量}{基期量}$。人身意外伤害险增速=$\frac{56}{23}$，健康险=$\frac{113}{76}$，寿险=$\frac{1025}{944}$，很明显人身意外伤害险＞健康险＞寿险，则选择 D

【技巧】直接比较$\frac{现期量}{基期量}$

113.以下个月中，哪个月全行业保险赔付支出额与保险保费收入额的比值最低？

A.1 月 B.2 月 C.3 月 D.4 月

【答案】A

【题型】

【考点】简单计算

【难度系数】容易

【华图老师】王丽冰

【华图老师解析】1 月=$\frac{501}{2012}$，2 月=$\frac{447}{1382}$，3 月=$\frac{540}{1756}$，4 月=$\frac{505}{1316}$，直除看首位，只有 1 月的最小。则选择 A。

【技巧】直除法　估算法

114.在寿险、健康险和人身意外伤害险中，有几类险种在 2013 年 5 月的保险赔付支出额占全行业保险赔付支出总额的比重高于上年同期水平？

A.0 B.1 C.2 D.3

【答案】B

【题型】

【考点】比重比较

【难度系数】容易

【华图老师】王丽冰

【华图老师解析】观察表格可知寿险、健康险和人身意外伤害险三种险种的赔付支出额增长率分别为 68%,29%,11%，而全行业保险赔付支出总额的增长率为 32%，只有寿险的大于全行业的，则只有 1 个。

【技巧】估算法

115.关于 2013 年 1-5 月保险业经营状况。能够从上述资料中推出的是：

A.5 月各类险种保费收入均低于 4 月

B.4 月三个人身险种的收入均高于一季度平均水平

C.2 月各类险种保险赔付支出均低于 1 月

D.1 月人身意外伤害险收入在保费总收入中的占比不足 2%

【答案】D

【题型】

【考点】综合分析

【难度系数】较难

【华图老师】王丽冰

【华图老师解析】A.观察可知 4 月的财险和寿险收入大于 5 月，则错误。

B. 有表格可知 4 月寿险收入为 669，而前三个月均高于 669，则 B 错误。

C.2 月寿险种保险赔付支出高于 1 月

D.1 月人身意外伤害险收入在保费总收入中的占比=$\frac{40}{2012}=1.988\%$，则正确。

【技巧】估算法

三、根据以下资料，回答 116~120 题

2013 年 3 月末，金融机构人民币各项贷款余额 65.76 亿元，同比增长 14.9%，增速比上年同期低 0.8 个百分点。

2013 年 3 月末，主要金融机构及小型农村金融机构、外资银行人民币小微企业贷款余额 11.78 亿元，同比增长 13.5%，比全部企业贷款余额增速高 1.2 个百分点。

2013 年 3 月末，主要金融机构本外币工业中长期贷款余额 6.46 万亿元，同比增长 3.2%。其中，轻工业中长期贷款余额 6824 亿元，同比增长 7.6%；重工业中长期贷款余额 5.77 万亿元，同比增长 2.7%。服务业中长期贷款余额 16.55 万亿元，同比增长 8.9%。

2013 年 3 月末，主要金融机构及小型农村金融机构、村镇银行、财务公司本外币农村贷款余额 15.24 万亿元，同比增长 18.4%；农户贷款余额 3.86 万亿元，同比增长 16.9%；农业贷款余额 2.87 万亿元，同比增长 12.3%。

2013 年 3 月末，主要金融机构及小型农村金融机构、外资银行人民币房地产贷款余额 12.98 万亿元，同比增长 16.4%。地产开发贷款余额 1.04 万亿元，同比增长 21.4%。房产开发贷款余额 3.2 万亿元，同比增长 12.3%。个人购房贷款余额 8.57 万亿元，同比增长 17.4%。保障性住房开发贷款余额 6140 亿元，同比增长 42.4%。

116.2013 年 3 月末，金融机构人民币各项贷款余额约是 2011 年同期的多少倍？

A.1.1　B.1.2

C.1.4　D.1.3

【答案】C

【题型】

【考点】两期混合增长率

【难度系数】中等

【华图老师】王小欢

【华图老师解析】2013 年 3 月末增长率是 14.9%，2012 年 3 月末增长率是 $14.9\%+0.8\%=15.7\%$，由 $15.7\%+14.9\%+15.7\%\times14.9\%\approx30\%$，因此是 2011 年的倍 $1+30\%=1.3$。因此，本题答案为 C 选项。

117.2013 年 3 月末，轻工业中长期贷款余额占工业中长期贷款的比重与上年相比：

A.约上升 0.4 个百分点　　B.约上升了 4 个百分点

C.约下降 0.4 个百分点　　D.约下降了 4 个百分点

【答案】A

【题型】

【考点】比重大小比较

【难度系数】中等

【华图老师】王小欢

【华图老师解析】轻工业中长期贷款余额增长率是 7.6%，工业中长期贷款余额增率是 3.2%，部分的增长率大于整体的增长率，比重上升，再根据增长率比较公式确定上升约 0.4 个百分点。因此，本题答案为 A 选项。

118.2013 年 3 月末，各项贷款余额从高到低排序正确的是：

A.农户贷款余额　　地产开发贷款余额　　农业贷款余额

B.房产开发贷款余额　　地产开发贷款余额　　轻工业中长期贷款余额

C.服务业中长期贷款余额　　农户贷款余额　　重工业中长期贷款余额

D.重工业中长期贷款余额　　轻工业中长期贷款余额　　房产开发贷款余额

【答案】B

【题型】

【考点】读数比较

【难度系数】容易

【华图老师】王小欢

【华图老师解析】地产开发贷款余额 1.04 万亿元；房产开发贷款余额 3.2 万亿

元；轻工业中长期贷款余额 6824 亿元=0.6824 万亿元。因此，本题答案为 B 选项。

119.2013 年 3 月末，房地产开发贷款余额同比增速约为：

A.12.3%　B.14.4%

C.19.3%　D.21.4%

【答案】B

【题型】

【考点】混合增长率

【难度系数】容易

【华图老师】王小欢

【华图老师解析】房地产开发贷款余额包括地产（21.4%）和房产（12.3%）两个部分，所以增长率介于两者之间，且偏向基数大的一方，因此选 B.

120.关于 2013 年 3 月末贷款余额情况，能够从上述资料中推出的是：

A.全部企业贷款余额同比增长了 14.7%

B.农村贷款余额比上年同期增长了 3 万多亿元

C.个人购房贷款余额同比增速快于保障性住房开发贷款余额

D.服务业中长期贷款余额同比增量超过工业中长期贷款余额的

【答案】D

【题型】

【考点】增长量

【难度系数】容易

【华图老师】王小欢

【华图老师解析】全部企业贷款余额同比增长率为 12.3%，A 错误；B.农村贷款余额比上年同期增长量低于 3 万亿元，B 错误；C 个人购房贷款余额同比增速慢于保障性住房开发贷款余额，C 错误；因此，本题答案为 D 选项。