2014甘肃公务员行政职业能力测验预测试卷（一）

华图公务员考试研究中心 编

第一部分 常识判断
（共20题，参考时限15分钟）

根据题目要求，在四个选项中选出一个最恰当的答案。

请开始答题：

1.下列各项中不属于金融体制改革的的一项是（　　）。

A. 完善转移支付制度，增加一般性特别是均衡性转移支付规模和比例，调减和规范专项转移支付

B. 完善现代金融企业制度，强化内部治理和风险管理，提高创新发展能力和国际竞争力

C. 拓宽货币市场广度和深度，增强流动性管理功能

D. 改进外汇储备经营管理，拓宽使用渠道，提高收益水平

2.1935年12月，中国共产党确定抗日民族统一战线政策的会议是（　　）。

A.遵义会议 B.瓦窑堡会议

C.洛川会议 D.晋绥干部会议

3.《滕王阁序》曰：“勃，三尺微命，一介书生。无路请缨，等终军之弱冠；有怀投笔，慕宗悫之长风。”其中“弱冠”借指的是（　　）。

A. 古代男子的帽子　　B.古代男子十五岁　　C.古代男子十八岁　D.古代男子二十岁

4.以下作品的集的命名与其他三项不同的是（　　）。

A. 《李太白全集》　B.《苏东坡全集》　c.《徐霞客游记》　D.《范文正公集》

5.“上品无寒门，下品无士族”指的是哪一时期的哪种选官制度？（　　）

A. 先秦时期—世袭制　B.两汉时期—察举制　C.魏晋南北朝时期—九品中正制　D.隋唐时期—科举制

6. 1978年以来制定的党内法规和规范性文件，有（　）件被废止和宣布失效，467件继续有效，其中（　　）件将作出修改。

A. 230　30　B.270　35　C.300　42　D.320　45

7.关于病毒的代谢，下列叙述不正确的是（　　）。

A. 病毒没有独立的代谢方式

B. 以复制进行繁殖的一类细胞型微生物

C. 在寄主体外，病毒并不能表现出生命活动

D. 病毒无法与外界进行物质和能量的交换

8. 使用（　）做饭可产生一种无机物与胃酸反应形成人体容易吸收的铁盐，从而提高造血机能，使红细胞增多，有益于健康。

A. 铜锅　B.铁锅　C.铝锅　D.无锈钢锅

9.下列诗句中与其他三项不同的是（　　）。

A. 一腔热血勤珍重，洒去犹能化碧涛
B. 神女应无恙，当惊世界殊
C. 取义成仁今日事，人间遍种自由花。
D. 浊酒不销忧国泪，救时应仗出群才

10. 聂耳、田汉分别为电影（ ）作词谱曲的主题歌《义勇军进行曲》称为广大人民群众久唱不衰的革命歌曲，后来称为中华人民共和国国歌。

A.《十字街头》 B.《渔光曲》 C.《风云儿女》 D.《大路》

11. 以下标识标识不正确的一项是（ ）。

A. 禁止烟火 B. 禁止宠物入内 C. 禁止触摸 D. 禁止浪费水资源

12. 李某创作歌曲《慢慢消逝》，曾某经李某许可后演唱该歌曲并由友谊公司合法制作成录音制品后发行。下列哪一项未经权利人许可的行为不属于侵权行为？（ ）

A. 某航空公司购买该正版录音制品后在飞机上播放供乘客欣赏
B. 甲公司购买该正版录音制品后进行出租
C. 乙学生购买正版的录音制品后用于个人欣赏
D. 丙学生购买正版录音制品试听后将其上传到网络上传播

13. 依法行政是法治国家对政府行政活动提出的基本要求，而合法行政则是依法行政的根本。下列哪种做法符合合法行政的要求？（ ）

A. 因板栗的销路看好，某镇政府要求村民拔掉苹果树改栽种板栗
B. 为解决大学生就业难，某市政府发布《促进大学生就业指导意见》，对录用大学生达一定数量的企业予以奖励
C. 王某受他人胁迫而殴打他人致轻微伤，某公安局决定对王某不予从轻处罚
D. 某市政府发布文件规定，外地物流公司到本地运输货物，应事前得到当地交通管理部门的准许，并缴纳道路特别通行费

14. 公民基本权利也称宪法权利。关于公民基本权利，下列哪一项是不正确的？（ ）

A. 人权是基本权利的来源，基本权利是人权宪法化的具体表现
B. 基本权利的主体主要是公民，在我国法人也可以作为基本权利的主体
C. 我国公民在行使自由和权利的时候，不得损害国家的、社会的、集体的利益和其他公民的合法的自由和利益
D. 权利和义务的平等性是我国公民基本权利和义务的重要特点

15. 酝酿多年的《中华人民共和国旅游法》于（ ）正式实施。

A. 2013年9月30日　　B.2013年10月1日　　C.2013年10月31日　D.2013年11月1日

16. 下列选项中不属于我国的三大航天中心的是（　　）。

A. 四川的西昌　B.甘肃的酒泉　C.山西的太原　D .江西的南昌

17.人类的航天事业发展由来已久，1969年，美国航天员阿姆斯特朗的名言“对于一个人来说这是一小步，对于人类来说是一次飞跃”随着（　　）事件的永载世界航天史册。

A. “挑战者”号航天飞机失事

B. “哥伦比亚” 号航天飞机发射

C. “阿波罗11”号载人登月

D. “水星”号载人飞船升空

18.下列著作当中与其他三项不同的是（　　）。

A. 《新修本草》　　B.《本草纲目》　　C.《神农本草经》　D.《黄帝内经》

19.下列有关太阳直射点移动规律正确的一项是（　　）。

A. 公转速度减慢的时间段为：7月初—秋分—冬至—1月初

B. 公转速度加快的时间段为：1月初—春分—夏至—7月初

C. 太阳直射点向北移动的时间段：冬至—春分—夏至

D. 太阳直射点的回归运动周期为365天5小时46分48秒

20.下列有关气象谚语说法不正确的是（　　）。

A. 日晕三更雨，月晕午时风

B. 细雨无久落，大雨没久晴

C. 清早起海云，风雨霎时临

D. 有雨山戴帽 无雨云拦腰

第一部分结束，请继续做第二部分！

第二部分　言语理解与表达

（共40题，参考时限35分钟）

本部分包括表达与理解两方面的内容。请根据题目要求，在四个选项中选出一个最恰当的答案。

请开始答题：

21.

思念乡村的人也有，多是政治上的失意者，商战中的败北者，战场上的伤残者，是激烈的争斗之后寻找宁静地方的疗伤者。乡村以善意的同情接纳了他们，用_____的温情和取之不尽的中草药为他们医治创伤。而这些受伤者往往如受伤的鸟，强健之后，又_____农人的双手飞进城市。所谓“世外桃源”，只是都市受伤者的幻觉和梦呓。

依次填入画横线部分最恰当的一项是（　　）。

A.　连绵不绝　　离开　　B.　断断续续　　摆脱

C. 源源不断　挣脱　　D. 稠迭连绵　逃脱

22. 演唱会就要开始了，平日里_____的体育中心，今日也变得_____，人声鼎沸起来，放眼望去，全部都是打着各色旗帜和荧光棒的男男女女，大都是刘德华的歌迷，当然，还有许多是趁机大捞一笔的聪明小贩，他们会借机兜售一些刘德华的海报、文化衫、望远镜……

依次填入画横线部分最恰当的一项是（　　）。

A. 冷冷清清　车水马龙　　B. 死气沉沉　人山人海

C. 悄无声息　摩肩接踵　　D. 门庭若市　熙来攘往

23. 书籍具有不朽的本质，在人类所有的奋斗中，唯有书籍最能经受岁月的磨蚀。庙宇与雕像在风雨中颓毁坍塌了，而经典之籍则与世长存。伟大的思想能挣脱时光的束缚，即使是千百年前的_____，时至今日仍新颖如故，熠熠生辉。只要拂动书页，当时所言_____，犹如亲闻。时间的作用淘汰了粗劣制品，就文学而言，只有经典名言方能经久传世。

依次填入画横线部分最恰当的一项是（　　）。

A. 金玉良言　一清二楚　　B. 至理名言　屈指可数

C. 真知灼见　历历在目　　D. 一家之言　一目了然

24. 世人欣赏苏东坡的文采之美，更赞叹他豁达的心胸和积极的人生态度。他的这一人生境界在《定风波》中表现得_____。途中遇雨，触动了他敏感的心灵。仕途多舛，宦海沉浮，与眼前这场_____的山雨何其相似，苏轼一样_____。“达则兼济天下，穷则独善其身”，眼前虽然风狂雨骤，电闪雷鸣，不过是历史的一瞬，人生的插曲。

依次填入画横线部分最恰当的一项是（　　）。

A. 酣畅淋漓　猝不及防　等闲视之

B. 淋漓尽致　措手不及　等量齐观

C. 痛快淋漓　迫不及待　淡然置之

D. 大快人心　突如其来　置若罔闻

25. 越来越繁荣的经济和优越的社会条件，让更多的现代中国人从过节的沉重中解脱出来。许多人选择在春节出门甚至出国旅游，这或许与传统的春节文化有点_____，但休闲已经不可逆转地成为春节的新符号。今年春节，天津市民武先生一家不再坐在家里守岁过年，而是一家老小远赴海南。武先生说，“外出旅游，少了过年的各种_____和交际应酬，能真正地休息和放松。”

依次填入画横线部分最恰当的一项是（　　）。

A. 相得益彰　繁文末节　　B. 格格不入　繁文缛节

C. 天壤之别　花天酒地　　D. 截然不同　迎来送往

26. 这里有一座高塔，攀登本身没有任何困难。而在每一级上，从塔上的眺望孔望见的景致都足够_____，每一件事物都是新的。无论近处或远处的事物都会使你依恋流连，但越往上走，攀登越_____了，所以我们要学会坚持。

依次填入画横线部分最恰当的一项是（　　）。

A.　扣人心弦　　艰难　　B.　心旷神怡　　快乐

C.　赏心悦目　　困难　　D.　引人入胜　　轻松

27.　　中国书法_____，是我国民族文化的瑰宝。书法以美的点画、字形和章法_____了书写者的艺术修养、性格气质和精神境界。研习、欣赏书法作品，_____可以增加书写的美感，_____能增进对民族文化的了解和热爱，从而培养高雅的审美情趣。

依次填入画横线部分最恰当的一项是（　　）。

A.　独具匠心　　传送　　虽然　　但

B.　博大精深　　传递　　不但　　而且

C.　博学多识　　转达　　既然　　就

D.　源远流长　　传达　　不仅　　还

28.　中国2010年上海世博会志愿者标志的主体由汉字“心”、英文字母“V”、嘴衔橄榄枝飞翔的和平鸽_____。此标志与世博会会徽“世”_____，在_____中国文化个性的同时，表达了志愿者的用“心”和热“心”。

依次填入画横线部分最恰当的一项是（　　）。

A.　造成　　殊途同归　　展现　　B.　构成　　异曲同工　　呈现

C.　组成　　不谋而合　　出现　　D.　形成　　见仁见智　　显现

29.　生命，是来自上天的_____。在父母_____的期盼中，我们呱呱坠地。因而，生命_____了太多希冀的目光和绵绵的情意。

依次填入画横线部分最恰当的一项是（　　）。

A.　恩赐　　望穿秋水　　承袭　　B.　赠与　　迫不及待　　承受

C.　宠儿　　寝食难安　　承担　　D.　馈赠　　望眼欲穿　　承载

30.　　作为“梅兰竹菊”四君子之首，梅为历代文人雅士所_____。此刻，寺院周围庄重的红墙，是我们镜头画面中的中国红；_____的雪花，是飘舞在空中的精灵；而晶莹如黄玉般的腊梅，暗香浮动，犹如_____的佳人。

依次填入画横线部分最恰当的一项是（　　）。

A.　钟爱　　飘飘洒洒　　形单影只　　B.　喜爱　　纷纷扬扬　　遗世独立

C.　热爱　　洋洋洒洒　　绝世独立　　D.　欣赏　　沸沸扬扬　　倾国倾城

31.　　日本律师尾山宏，一位70岁的老人，_____着巨大的压力，用自己大半生的时间对日本政府侵华战争的罪行进行着不懈的_____。在他身上，人们看到了跨越国家和民族的正义力量，这力量_____着人们，在捍卫正义的道路上，人们唯一不能失去的就是正义响在心中的声音。

依次填入画横线部分最恰当的一项是（　　）。

A.　承载　　追踪　　昭示　　B.　承担　　追究　　启迪

C.　担负　　追查　　启发　　D.　承受　　追问　　启示

32.　虽然国家对“低碳”理念大力宣传，同时有关部门也制定并颁布了相关的法律

法规对行业的“低碳”标准进行了规范，但我们许多生产“环保、低碳”产品的企业不重视产品的宣传，以致产品虽好却_____。

填入画横线部分最恰当的一项是（　　）。

A. 束之高阁　　B. 黯然失色

C. 门庭若市　　D. 无人问津

33. 晚明是一个讲究生活情调的时代，同时也是一个_____的时代，虽然它最终未能抵挡住清朝的金戈铁马，但当斯文扫地之时，能够_____柳如是、李香君、陈圆圆这样的人物，也仍然在中国文化史上留下了一个_____的美梦，给严酷的晚明历史带来了片刻的温馨和宁静！

依次填入画横线部分最恰当的一项是（　　）。

A. 醉生梦死　发现　亦真亦幻　　B. 纸醉金迷　出现　昙花一现

C. 灯红酒绿　涌现　稍纵即逝　　D. 穷奢极欲　显现　过眼烟云

34. 当然，在监考上下工夫，永远只是_____。加强对学生的思想教育和人格品质的培养，改革课程设置，倡导科学的教学与考试方法，从根本上解决学以致用问题，才能对现有的舞弊现象起到_____的作用。

依次填入画横线部分最恰当的一项是（　　）。

A. 扬汤止沸　釜底抽薪　　B. 饮鸩止渴　一劳永逸

C. 急功近利　绝薪止火　　D. 得不偿失　事半功倍

35. 鉴于日方在钓鱼岛问题上有不同_____，我国政府从发展中日关系出发，在坚持我一贯立场的前提下，与日方_____了此问题留待以后解决、不采取单方面行动、避免这一问题_____两国关系大局的共识。

依次填入画横线部分最恰当的一项是（　　）。

A. 分歧　形成　影响　　B. 主张　达成　干扰

C. 观点　签署　破坏　　D. 见解　制定　扰乱

36. 生活就是99个回合，因为生活就是不断地面对新的挑战。当你一帆风顺、势如破竹的时候，切勿大意，几个回合的胜利并不可靠，生活还有90多场考验。当你_____、悲观丧气的时候，切勿_____，几个回合的碰壁又算得了什么，后边还有90多个机会。

依次填入画横线部分最恰当的一项是（　　）。

A. 一败涂地　自惭形秽　　B. 一蹶不振　自暴自弃

C. 一筹莫展　妄自菲薄　　D. 一触即溃　自甘堕落

37. 当你阅读莎士比亚的戏剧代表作《哈姆莱特》时，你会被它_____的构思、_____的剧情、尖锐激烈的矛盾冲突、个性鲜明的人物形象所折服，你更会强烈地领悟到力量的较量其实就是智慧的较量。

依次填入画横线部分最恰当的一项是（　　）。

A. 别出心裁　波澜壮阔　　B. 巧夺天工　别具匠心

C. 独具匠心　波澜起伏　　D. 独辟蹊径　惊心动魄

38.

2011年7月23日20时38分，两趟动车京福D301次和杭福D3115次列车追尾，截至24日晚22点50分已造成35人遇难和192人受伤，现场_____
。事故发生后，比较多的说法是雷击导致D3115次车通讯系统失灵。雷击乃正常自然现象，但车毁人亡不能仅仅_____
于雷击，相关部门和有关人员仍要承担无法推卸的责任。

依次填入画横线部分最恰当的一项是（　　）。

A.　惨不忍睹　　归咎　　B.　惨绝人寰　　归责

C.　惨无人道　　归罪　　D.　惨不忍闻　　归因

39.

沙石出身贫贱，却有着崇高的理想；它形虽碎散，却一心向往集体。它不像珍珠那样一味炫耀自己；也不像钻石那样孤高自赏。平日_____
，一旦需要，它又招之即来。论胆识，可以_____；讲忠贞，心甘_____
。献身前，绝无先决条件；献身后，又无悔语怨言。这是一种多么可贵的品格啊！

依次填入画横线部分最恰当的一项是（　　）。

A.　默默无闻　　赴汤蹈火　　粉身碎骨

B.　默不做声　　奋不顾身　　肝脑涂地

C.　不见经传　　出生入死　　舍生取义

D.　悄无声息　　舍生忘死　　视死如归

40.

近来，关于媒体与网络爆出的“封口费”事件以及4件文物受损一事，故宫全部予以否认。对于近期不断有故宫内部人士向媒体_____
的情况，有故宫工作人员_____，希望故宫不要再陷进“内斗”的_____。

依次填入画横线部分最恰当的一项是（　　）。

A.　爆料　　担忧　　泥潭　　B.　反映　　坦承　　沼泽

C.　揭露　　指出　　漩涡　　D.　揭发　　回应　　局面

41.

只有场外交易或政府出面干预，公家单位才有可能拿到藏品，否则拍卖场上的许多好书，图书馆都难以得到。这种情况在图书馆界普遍存在。是公家经费缺乏吗？至少不全是。通常的原因在于：有些管理者或对古籍价值的认识片面，或畏惧市场，怕承担责任；体制上的限制也使得预算难以跟上拍卖市场的变化；再就是缺少真正懂行的专家，有钱也未必能识书、买到好书。目前社会上，流通领域与收藏界的行家里手比图书馆多，他们的水平是在市场竞争中打拼出来的，有的本来就是学问家。

这段文字重在（　　）。

A.　分析图书馆难以拿到藏品的原因

B.　说明政府在图书管理方面责任的缺失

C.　强调图书馆难以拿到藏品的现象普遍存在

D.　提醒我们图书馆界存在严重问题

42.

“快餐文化”的流行由来已久，吃快餐、听通俗歌曲、玩电子游戏、看武侠电影、网上谈情说爱，美国大片、明星出书、美女作家等都成了快餐文化的经典。如今的快餐文化就像沙尘暴，充斥在我看来的社会生活中。快餐文化对于面对工作压力和个人空间日益狭小的现代人，有缓解身心疲惫的作用，电影中虚

拟的江湖恩怨和精彩的打斗场面，让观众在紧张的工作压力下，着实放松。但是，快餐文化的文化含量非常稀薄，蓄意炒作相互复制膨化发胀是其特征。这些粗糙低俗的快餐文化成为我们的精神食粮，其灾难性的后果已经显现，白领阶层的话题，学生们崇拜的偶像，年轻人的文化趣味，都和上述快餐文化的表现形式一致，已经暴露出严重的沙化后果。

这段文字主要说明（　　）。

A.　快餐文化对现代人生活的影响　　B.　快餐文化的各种形式

C.　快餐文化将导致“精神沙化”　　D.　快餐文化的基本特征

43.

即使在赵半狄大张旗鼓的抵制下，漂洋过海而来的熊猫“阿宝”还是一路飞奔着闯过了3亿票房大关，凭着好莱坞的老套路和新学的中国功夫，《功夫熊猫2》想要在中国完成其六亿票房的圈钱目标似乎并不是梦。这不仅让赵半狄郁闷，也让观众们感慨，中国有功夫、有熊猫，为什么没有《功夫熊猫》？暂且不论《功夫熊猫》是不是对中国的文化侵略，但它带给我们的震动却是实实在在的。

这段文字意在说明（　　）。

A.　中国为什么没有《功夫熊猫》

B.　《功夫熊猫》对中国文化的侵略

C.　《功夫熊猫》给中国人民带来的震动

D.　说明中国动画必须自身强大起来

44.

自20世纪50年代以来，中国外交一贯秉承“不干涉别国内政”的立场，强调海外华侨、华人“入乡随俗”。但“不干涉别国内政”并不意味着对别国明显针对华裔的歧视性政策、措施无动于衷，“入乡随俗”也不等于明明受到歧视、排挤甚至暴力对待，也要委曲求全，不能向“娘家”诉苦、求助。华侨不论新侨、老侨，只要未加入外国国籍，就仍是中国公民，理应受到中国政府的依法保护，但在“入乡随俗”的惯性思维下，某些时候，这种本应理直气壮的保护、支持，却变得吞吞吐吐。在某些使领馆和个别外交人员心目中，来使馆求保护、讨说法是“哭闹”，替华侨出头，向当地政府和有关方面交涉是“生事”，积极性不高，态度生硬，国内可以听见动静的“大事”尚能得到重视，反之则不免敷衍。

对这段文字的主旨概括最准确的是（　　）。

A.　中国应改变“不干涉别国内政”和“入乡随俗”的外交立场

B.　某些使领馆和外交人员对保护华侨利益积极性不高

C.　中国外交的立场令侨民在异国他乡有苦难言

D.　中国应采取措施支持和保护海外华侨的利益

45.

生态旅游作为一种旅游行为，其宗旨是培养旅行者强烈的环保意识和环境危机意识。不仅要求生态旅游的对象是自然景物，而且要求游客行为要“环保”，生态旅游的对象不应受到损害。有专家说，现在社会上对生态旅游就是到人迹罕至的地方去的认识是片面的。据《新科学家》杂志报道，生态旅游表面上看是喜欢那些珍稀动物，但游客们的行为其实害了它们。人类频频接近野生动物，会造成动物心理紧张，压力增加。北极熊、企鹅、海豚和澳大利亚野犬，甚至热带雨林里的鸟类，都受到愈来愈大的来自生态旅游方面的影响，它们体重

减轻，有的甚至死亡。生态旅游当前每年增长10％到30%，在1998年吸引全球900万人，连联合国也赶热闹，将2002年定为生态旅游年。

下列对“生态旅游”这一概念的理解，最准确的一项是（　　）。

A.
指以大漠戈壁、原始森林为对象，感悟大自然的杰作，与自然界各种生灵亲密接触的旅游行为

B.
指以自然景物为对象，以培养旅行者强烈的环保意识和环境危机意识为宗旨的一种旅游行为

C.
指到人迹罕至的地方去，接近珍稀野生动物，培养旅行者强烈的环保意识和环境危机意识的旅游行为

D.
指既可以让人亲近大自然，又能达到环保的理想，当前每年增长10％到30%的一种旅游行为

46.
韧性，大意志也。事业凭韧性而渐进，人才藉韧性而玉成。“积土成山”为韧；“水滴石穿”为韧；“春蚕吐丝”为韧；“皓首穷经”为韧；“面壁十年”为韧；“卧薪尝胆”为韧；“纠缠如毒蛇，执著如怨鬼”为韧；“野火烧不尽，春风吹又生”为韧……至柔至刚为大韧。无形无色之水，
无边无际之气，无影无踪之风，无名无欲之草，无声无息之根，皆藏锋守拙，以柔弱胜刚强。“韦”，熟牛皮也；“刃”，刀锋也。故“韧”乃刚柔相济也。人之处事，柔而不刚，难以有始；刚而不柔，难以有终。刚柔相济，方能有始有终，善始善终。

这段文字意在说明（　　）。

A.　什么是韧性　　B.　韧性是以柔弱胜刚强

C.　“韧”字由来的考证　　D.　人们应学会刚柔相济

47.
电视媒体广告过多、过滥，时间过长，早已为观众所诟病。明明是一集40分钟的电视剧，偏要“腰斩”成几段，没完没了地插播广告。当观众正看得如痴如醉之时，电视剧戛然而止，扑入眼帘的便是花花绿绿、索然寡味的广告。明明是电视剧放完了，却偏要插上一段广告，再放演员名单，使观众大有上当受骗之感。诸如此类，凸显了电视媒体的一种霸道，而其背后就是唯利是图。电视媒体需要广告的支撑没有错，但应把握尺度，注重社会效益与经济效益的有机结合。

这段文字意在说明（　　）。

A.　电视媒体中不应该加入过多的广告

B.　电视媒体唯利是图，太过霸道

C.　从长远角度来看，电视中广告过多不利于电视媒体的发展

D.　电视媒体应适度约束、克制自身的经济行为，将更多的时间交给观众

48.
在当代中国社会，存在着严重的道德问题，物质主义和享乐主义的价值观念盛行，社会经济的发展和社会道德的发展呈现着极不同步的状态，中国人从来没有像今天一样富有，而无数的中国人在精神上也同样从来没有像今天一样贫穷

。问题的存在与社会革命过程中割裂了传统文化和道德观念的影响有着密切的关系。在当今中国的精神文明建设过程中，我们要严防多元文化主义和自由主义思想片面性的不利影响，打造具有传统价值和人道精神的道德伦理，对于低级的、鄙俗的社会价值观念和习惯绝不能任其泛滥，这关系着我们民族精神的健康和长远发展。

这段文字意在强调（　　）。

A.　中国存在严重的道德问题

B.　要防止自由主义思想的不利影响

C.　要打造具有传统价值和人道精神的道德观

D.　应加强传统文化和道德观念的教育

49.

能认识到自己有种种遗憾，勇于放弃不切实际的梦想而坦然无愧的人，可以说是完整的。知道自己够坚强，熬得过悲伤而幸存，丧失至爱而觉得自己并非残缺的男男女女，可以说都是完整的。你已经历了最坏的境遇，而依然是完整的。我们每一个人天生都有这样或那样的不足，能如残缺之圆继续在人生之途滚动并细尝沿途滋味，就能达到其他人只能渴望的完整。我相信这就是生命所能赋予我们的：不求事事如愿，但求问心无愧。

下列说法与原文相符的是（　　）。

A.　不能做到放弃不切实际的梦想而坦然无愧的人是不完整的

B.　我们每个人天生就是残缺的

C.　现实生活中大多数人都是不完整的

D.　知道自己足够坚强的人是完整的

50. ①同时，中国诗歌的格律也在逐渐严密化，从自由体走向格律体

②在自由体与格律体之间始终没有分成派别。它们各擅其能，互相补充，共同促进中国诗歌的繁荣发展

③中国诗歌之所以能历久不衰，一个重要的原因是，它本身有一种调节功能，其语言形式处在不断变化的过程之中

④就一个诗人来说，固然有人擅长自由体，有人擅长格律体，但两方面的训练都是具备的

⑤从四言到五言到七言，随着汉语的发展变化而不断形成新的节奏

⑥但格律体确立之后，自由体仍不衰退，而是和格律体并存着，各有其特长

将以上6个句子重新排列，语序正确的是（　　）。

A.　⑤③①④②⑥　　B.　③⑤①⑥④②

C.　③①⑤④⑥②　　D.　③⑤①②④⑥

51.

①然后枕着古镇的恬静酣睡一夜，蓄养出勃勃的精力，再供明天的风浪去销蚀

②那掌舵的老大或拉纤的汉子便循着窄窄的石级缓缓地走上来，在古街上溜达一下，舒张舒张疲乏的身躯

③白天，他们在河道里经历了风与浪的搏斗，在夕阳西下，落霞铺彩之时，挟着唱晚的渔歌，沾着浪尖的飞沫，泊进古镇平静的港湾里

④明天路程的终点也许还是一座古镇，就那么山一程水一程地漂泊过去，一座座的古镇就勾连着他们的今天、明天和后天

⑤然后在临河的一爿小酒店里坐下来，沽一壶酒，买两碟菜，慢悠悠地喝

，把余下的一丝精力蘸着酽浓的酒液，直喝到酥酥的微醉

⑥对一条条漂泊的远舟来说，那古镇就是一处驿站

将以上6个句子重新排列，语序正确的是（　　）。

A.　⑥③②①⑤④　　B.　③②⑤①⑥④

C.　⑥③②⑤①④　　D.　③②①⑤⑥④

52.

①发展低碳经济将成为一场涉及生产模式、生活方式、价值观念和国家权益的全球性革命

②在全球变暖的大背景下，低碳经济受到越来越多国家的关注

③因此，推行低碳经济被认为是避免气候发生灾难性变化、保持人类可持续发展的有效方法之一

④近些年来，科学界以及各国政府已基本达成一致，认为人类活动导致地球大气层中的温室气体（尤其是二氧化碳）不断增多，气候正在发生变化

⑤低碳经济是指温室气体排放量尽可能低的经济发展方式，尤其是要有效控制二氧化碳这一主要温室气体的排放量

⑥在可预见的将来，温室气体水平过高导致的全球变暖会对人类生活产生负面影响

将以上6个句子重新排列，语序正确的是（　　）。

A.　①⑤⑥③②④　　B.　⑤①②④⑥③

C.　⑤②④⑥③①　　D.　⑤②④①⑥③

53.

个性化的教育，是一种重视个性，发展个性，注重学生的智慧潜能，承认差异，发挥自我，崇尚自由，促进学生个性完美和全面素质提高的创造性教育模式。个性化教育的实质是以受教育者的个性差异为依据，让每个学生都找到自己个性、才能发展的独特领域，以及以个性充分发展、人格健全为目的的教育。通过个性化教育能够显示自我的存在，树立对自己力量的信心。但是，由于历史传统的影响，长期以来，我们只重视群体培养而忽视个性塑造，长此下去，青少年学生将逐渐变成敛其行、慎其言、弱其欲，以致最终被训练成为“顺从的一代又一代”。

这段文字意在说明（　　）。

A.　个性化教育对促进学生的全面素质提高有重要作用

B.　我国应大力推行个性化教育

C.　我国的个性化教育仍然存在严重的问题

D.　我国应反对群体培养的教育模式

54.

中国当今的家庭教育可能是世界上最糟糕的家庭教育，出现了种种误区，这些误区并非今天才有。近代以来，传承千年的教育体系逐渐断裂，走上了另外一面。从1905年废科举之后，教育体系就发生了根本性的变化，原本以德行为第一的目标没有了，变成了以传授知识为主，传统的家庭教育慢慢消失，唯知识的教育盛行。在以经济为第一目标的社会环境下，人们已没有教养孩子的意识，特别是富豪精英，没有一个知道应该如何教育孩子，只是把孩子扔到物质享受中，看起来似乎是给孩子最好的物质条件，但实际上是用物欲淹没孩子。就比如某名人之子，15岁就驾车上街，那是在找死，不是自己出车祸，就是把别人撞死。

这段文字意在说明（　　）。

A.　我国家庭教育出现了种种误区

B.　我国应重塑传承千年的教育体系

C.　我们给孩子最好的物质条件的同时要注重引导其思想

D.　我国在家庭教育中应重视德行教育

55.

中国美国商会2008年对238家在中国企业调查，71%获利高于全球平均水平，80%准备追加投资。摩根斯坦利调查报告分析显示：中国对美出口，美国消费者每年节省1000亿美元，美国企业获利6000亿美元，占标准普尔指数涵盖公司利润总额的10%以上。据亚洲开发银行估算，美国苹果公司的iPhone零售价为178.96美元，其中中国赚取的加工费仅占3.6%，大部分价值被美国的设计、运销和零售企业获得。2011年8月上旬，旧金山联储两位经济学家研究认为，2010年来自中国的商品和服务仅占美国个人消费支出的2.7%，其中从中国进口的真实成本不到一半，其余都来自美国本土企业和工人的运输、销售和营销成本。

对这段文字的主旨概括最准确的是（　　）。

A.　美国商品的大部分价值都被美国企业所获得

B.　来自中国的商品和服务占美国个人消费支出的比重很小

C.　美国从中美自由贸易中获得了实实在在的好处

D.　在中美贸易中，中国所获取的价值远远低于美国所获的价值

56.

①卷云丝丝缕缕地飘浮着，有时像一片白色的羽毛，有时像一块洁白的绫纱

②卷云和卷积云都很高，那里水分少，它们一般不会带来雨雪

③这种云很薄，阳光可以透过云层照到地面，房屋和树木的光与影依然很清晰

④如果卷云成群成行地排列在空中，好像微风吹过水面引起的鳞波，这就成了卷积云

⑤那最轻盈、站得最高的云，叫卷云

将以上5个句子重新排列，语序正确的是（　　）。

A.　⑤③①④②　　B.　①⑤④③②

C.　②③①④⑤　　D.　⑤①③④②

57.

没错，年轻时心不安分，不知天高地厚，想入非非，把远方想象得那样好，才敢于外出漂泊。而漂泊不是旅游，肯定是要付出代价的，品尝人生的多一些滋味，也绝不是如同冬天坐在暖烘烘的星巴克里啜饮咖啡的一种味道。但是，也只有年轻时才有可能去漂泊。漂泊，需要勇气，也需要年轻的身体和想象力，便收获了只有在年轻时才能够拥有的收获，和以后你年老时的回忆。人的一生，如果真的有什么事情叫做无愧无悔的话，在我看来，就是你的童年有游戏的欢乐，你的青春有漂泊的经历，你的老年有难忘的回忆。

本段文字意在强调（　　）。

A.　漂泊，值得尝试　　B.　要珍惜青春，别让年老时后悔

C.　漂泊的青春才是无悔的青春　　D.　人一生值得回忆的东西

58.

雪花膏以其纯白如雪，且在皮肤上涂搽时也会像雪花一样迅速地融化、渗透而

得名，主要含有脂肪酸、保湿剂和大量的水。当把雪花膏涂抹在皮肤上以后，其中的水分会很快地蒸发，于是便留下了一层肉眼看不见的由硬脂酸和保湿剂构成的保护膜，使皮肤免受外界空气的刺激，变得滋润、细腻。

雪花膏能使皮肤变得滋润、细腻的原因是（　　）。

A. 雪花膏像雪花一样融化在皮肤里

B. 雪花膏里的水分蒸发带走皮肤表面的汗液

C. 雪花膏形成保护膜使皮肤免受刺激

D. 雪花膏里的脂肪酸融入皮肤

59.

豪放历来都是男人的专利，如“大风起兮云飞扬，威加海内兮归故乡，安得猛士兮守四方”的刘邦；再如“东临碣石，以观沧海”的曹操；又如“仰天大笑出门去，我辈岂是蓬蒿人”的李白；还如“大江东去，浪淘尽，千古风流人物”的苏轼，等等，他们那种豪放的气魄，豪放的胸襟，让多少后人为之倾倒。然而，当了解唐朝的才女的豪放之后，就会感到这些豪放并不只是男人的专利，而唐朝才女的豪放更令历朝历代的自以为豪放的男人们望尘莫及。

作者接下来最有可能介绍的是（　　）。

A. 分析唐朝才女豪放的原因　　B. 举例说明唐朝才女如何豪放

C. 论述豪放并非男人的专利　　D. 唐朝才女为何成为历史上的特殊群体

60.

现在的娱乐圈一片污水泥浊，深陷在这样一个环境之中的艺人，大多是自由职业者，签约于经纪公司，由于缺乏严格的管理制度和缺乏应有的思想和道德教育，在物欲横流的商品社会中，明星们一切向钱看，只看重名气却败坏了名声，拥有的财富越来越多，道德层面却是严重滑坡，这是不争的事实。

下列选项符合文意的是（　　）。

A. 长期以来，娱乐圈呈现出一片污水泥浊的现象

B. 深陷在娱乐圈的艺人们都是自由职业者

C. 经纪公司都缺乏严格的管理制度和应有的思想和道德教育

D. 娱乐圈的明星们道德层面严重滑坡

第二部分结束，请继续做第三部分！

第三部分 数量关系

（共15题，参考时限15分钟）

在这部分试题中，每道题呈现一段表述数字关系的文字，要求你迅速、准确地计算出答案。

请开始答题：

61.

现有一批设备需由北京运往相距300千米的秦皇岛，甲、乙两车分别以80千米/小时和60千米/小时的速度同时出发，甲车在距秦皇岛130千米的A处发现有部分设备丢在B处，

立即以原速返回到B处取回设备，为了还能比乙车提前到达秦皇岛，开始加速以

100千米/小时的速度向秦皇岛前进，设AB的距离为a千米，则a的取值范围是（ ）。

A. 0＜a＜50　　B. 0＜a＜70

C. 0＜a＜60　　D. 0＜a＜45

62.

有一个商店把某件商品按进价加20%作为定价，可是总卖不出去，后来老板按定价减价20%以96元出售，很快就卖掉了，这次销售的盈亏情况为（　　）。

A. 赚了　　B. 不亏不赚　　C. 亏了4元　　D. 亏了24元

63.

甲、乙二人在同一条椭圆形跑道上作特殊训练：他们同时从同一地点出发，沿相反方向跑，每人跑完第一圈到达出发点后立即回头加速跑第二圈，跑第一圈时，乙的速度是甲速度的$\frac{2}{3}$，甲跑第二圈时速度比第一圈提高了$\frac{1}{3}$，乙跑第二圈时速度提高了$\frac{1}{5}$。已知甲、乙二人第二次相遇点距第一次相遇点190米，那么这条椭圆形跑道长多少米？（　　）

A. 300　　B. 400　　C.600　　D.800

64.

某甲买了年利率为7.11%的三年期基金和年利率为7.86%的五年期国债共35000元。若三年期基金到期后，把本息再连续存两个一年期的定期存款（一年定期存款年利率为5.22%），五年后与五年期国债的本息总和为47761元。那么某甲购买了三年期基金和五年期国债各多少元？（　　）

A. 20000，15000　　B. 15000，20000

C. 12000，18000　　C. 11500，23500

65.

在一次同学聚会中，每两名同学之间都互送了一件礼物，所有同学共送了90件礼物，共有多少名同学参加了这次聚会？（　　）

A. 45　B. 30　C. 9　D. 10

66.

某商场在节日期间实行促销，规定凡是购买200元以上的商品可以优惠20%，那么用300元钱在该商场最多可买下价值多少元的商品？（　　）

A. 375　B. 350　C. 340　D. 320

67.

某盒灯泡中有3只次品和6只正品（每只均可区分），测试员每次取出一只进行测试，直到3只次品全部测出为止。假如第三只次品在第六次测试时被发现，那么不同的测试情况共有多少种？（　　）

A. 43200　B. 7200　C. 60　D. 120

68.　有理数a等于它的倒数，有理数b等于它的相反数，则$a^{1998}+b^{1998}$＝（ ）。

A. 0　B. 1　C. -1　D. 2

69.

纸上写着2、4、6三个整数，改变其中任意一个，将它改写成为其他两数之和减1，这样继续下去，最后可以得到的是（　　）。

A. 595、228、368　　B. 44、95、50
C. 103、109、211　　D. 159、321、163

70.
有1元、2元、5元、10元、20元纸币五种，有6张纸币面值之和是40元，从中可以凑成1元至40元的40种钱数。如果拿掉一张2元，那么可以凑成的不同钱数有几种?（　　）

A. 28　B. 30　C. 31　D. 34

71.
由甲、乙、丙、丁四个人组成的代表队参加数学竞赛，已知甲比乙、丙、丁三人的平均分高2分；乙比甲、丙、丁三人的平均分低3分，丙比甲、乙、丁三人的平均分高3分，则丁比甲、乙、丙三人的平均分（　　）。

A. 高两分　B. 低两分　C. 低三分　D. 高三分

72.
某作业组要在规定的时间内恰好完成一项工程，如果减少两名工人，则需增加4天恰好完成；如果增加3人，则可提前2天完成，且略显轻松；又如果增加4人，则可提前3天完成，且略显轻松。则这个作业组原有多少人？（　　）

A. 6　B. 7　C. 8　D. 9

73.
甲、乙、丙三队要完成A、B两项工程。B工程的工作量比A工程的工作量多25%，甲、乙、丙三队单独完成A工程所需的时间分别是20天、24天、30天。为了共同完成这两项工程，先派甲队做A工程，乙、丙两队做B工程；经过几天后，又调丙队与甲队共同完成A工程。问乙、丙两队合作了多少天？（　　）

A. 3　B. 6　C. 9　D. 15

74.
在边防沙漠地带，巡逻车每天行驶200千米，每辆巡逻车可载供行驶14天的汽油，现有5辆巡逻车，同时从驻地A出发，完成任务后再沿原路返回驻地。为了让其中三辆尽可能向更远的距离巡逻（然后再一起返回），甲、乙两车行至途中B处后，仅留足自己返回驻地所需的汽油，将其余的汽油留给另外三辆使用，问其他三辆车可行进的最远距离是多少千米？（　　）

A. 1800　B. 2400　C. 3000　D. 3600

75.
4个要好的同学同时考上了同一所高中，假设这所学校的高一年级共有10个班，那么至少有2人分在同一班级的概率为（　　）。

A. $\frac{12}{25}$　B. $\frac{62}{125}$　C. $\frac{37}{75}$　D. $\frac{49}{135}$

第三部分结束，请继续做第四部分！

第四部分判断推理
（共40题，参考时限35分钟）

一、图形推理。请按每道题的答题要求作答。

请开始答题：

76.

从所给的四个选项中，选择最适合的一个填入问号处，使之呈现一定的规律性：

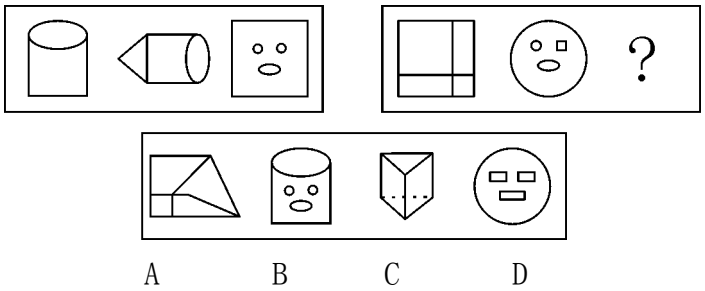

A B C D

77.

从所给的四个选项中，选择最适合的一个填入问号处，使之呈现一定的规律性：



A B C D

78.

从所给的四个选项中，选择最合适的一个填入问号处，使之呈现一定的规律性：



A B C D

79. 左边给定的是纸盒的外表面，下面哪一项能由它折叠而成？

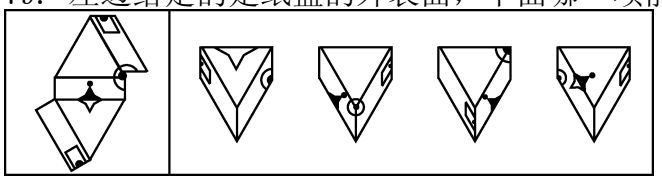

A B C D

80.

从所给的四个选项中，选择最合适的一个填入问号处，使之呈现一定的规律性：

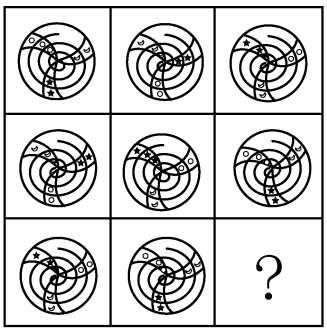

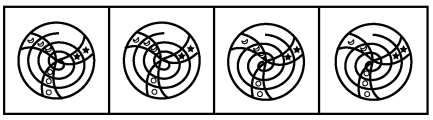

A　　B　　C　　D

81.

把下面的六个图形分为两类，使每一类图形都有各自的共同特征或规律，分类正确的一项是（　　）。

①　②　③　④　⑤　⑥

A. ①②③，④⑤⑥　　B. ①③④，②⑤⑥

C. ①②④，③⑤⑥　　D. ①④⑤，②③⑥

82.

把下面的六个图形分为两类，使每一类图形都有各自的共同特征或规律，分类正确的一项是（　　）。

①　②　③　④　⑤　⑥

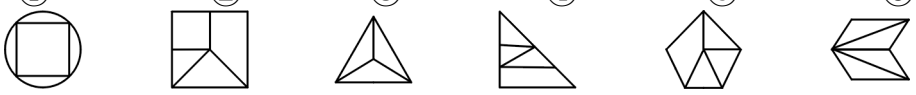

A. ①③④,②⑤⑥　　B. ①⑤⑥,②③④

C. ①②⑤,③④⑥　　D. ①③⑤,②④⑥

83.

把下面的六个图形分为两类，使每一类图形都有各自的共同特征或规律，分类正确的一项是（　　）。

①　②　③　④　⑤　⑥

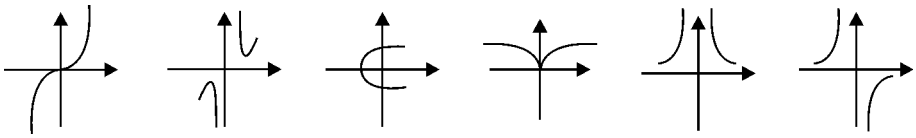

A. ①②③,④⑤⑥　　B. ①③⑥,②④⑤

C. ①④⑤,②③⑥　　D. ①②⑥,③④⑤

84.

把下面的六个图形分为两类，使每一类图形都有各自的共同特征或规律，分类

正确的一项是（　　）。

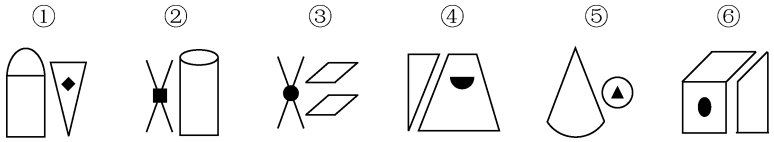

A. ①④⑥，②③⑤　　B. ①②⑤，③④⑥
C. ①⑤⑥，②③④　　D. ①③⑤，②④⑥

85.
把下面的六个图形分为两类，使每一类图形都有各自的共同特征或规律，分类正确的一项是（　　）。

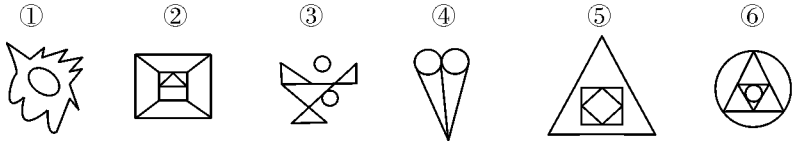

A. ①②④，③⑤⑥　　B. ①③⑤，②④⑥
C. ①③⑥，②④⑤　　D. ①④⑥，②③⑤

二、定义判断。每道题先给出定义，然后列出四种情况，要求你严格依据定义，从中选出一个最符合或最不符合该定义的答案。注意：假设这个定义是正确的，不容置疑的。

请开始答题：

86.
公益活动是指一定的组织或个人向社会捐赠财物、时间、精力和知识等活动。公益活动的内容包括社区服务、环境保护、知识传播、公共福利、帮助他人、社会援助、社会治安、紧急援助、青年服务、慈善、社团活动、专业服务、文化艺术活动、国际合作等。

下列属于公益活动的是（　　）。

A.　我国政府为朝鲜社会经济发展提供5000万人民币的无息贷款

B.
汶川地震，各级政府调拨物资1000吨，企业和个人累计捐款几十亿人民币

C.　今年我国50名志愿者入选了国际红十字会会员

D.
某企业家在母校设立了以自己名字命名的奖学金，专门奖励杰出的创新型人才

87.
所谓情景模拟就是指根据被试者可能担任的职务，编制一套与该职务实际情况相似的测试项目，将被试者安排在模拟的、逼真的工作环境中，要求被试者处理可能出现的各种问题，用多种方法来测评其心理素质、潜在能力的一系列方法。它是一种行为测试手段。

下列属于情景模拟的是（　　）。

A.
某社区医院为了解其所在社区内老年人的健康状况，要求医生李某制定适合本社区老年人的调查问卷，在调查过后医院充分了解了社区内老年人的健康状况

B.
为了提高师范类毕业生的教学水平，学校在大四下学期安排他们到中学实习

C.
小李为了在明天的面试中取得好的成绩，按照以往面试时的测试项目和测试内容进行精心的准备，并对着镜子不断地练习

D.
王某在回答完所有面试问题后，面试官拿出一沓材料，说马上要召开新闻发布会，要求他准备一份演讲稿

88.
一旦下大雨，未建水库的河流就会发大水、产生洪涝灾害；而持续日晒，河流就会干涸，水量就会不足。所以，要建水库蓄水，使水量不受天气和环境的左右并始终保持一定的数量。经营方面也是一样，景气时更要为不景气时做准备，应该保留一定的后备力量。这就是松下幸之助提出的一种企业和人生经营理念，即水库式经营。

下列未体现出水库式经营的是（　　）。

A.
某公司为扩大经营规模，需要十万元资金，公司账户资金不足，于是向银行贷了十二万元

B.
现阶段，某工厂生产甲产品的效率为每月1000件，而社会中现每月消费800到900件，于是该工厂每月生产900件

C.
美国著名企业苹果公司在陆续推出iPhone4、iPhone4S之后，又继续开发研制iPhone5、iPhone6

D.
现代社会市场竞争日益激烈，每个员工都应存有忧患意识，心理上都要有能承受紧急突发状况的能力，如此才能处变不惊，遇到困难才能迎刃而解

89.
金属工件加热到一定温度后，浸入冷却剂(油、水等)中，经过冷却处理，工件的性能更好、更稳定。此原理引入到心理学和教育学中即是“淬火效应”。

根据淬火效应的原理，下列选项不属于应用该原理的是（　　）。

A.
老师批评小明上课迟到，小明不以为然，与老师争吵，气氛僵化。此时老师提出下课后与小明单独沟通，然后继续讲课

B.
小红在市短跑比赛中接连几次得了第一名，认为自己的实力很强，不用再训练了。教练为其报名参加了省短跑比赛，小红发挥正常但名落孙山，认识到了自身的差距

C.
全国青少年绘画大赛报名在即，小君的绘画水平很高，老师希望他参加，小君拒绝。老师急忙与其家长沟通，在家长的劝说下，小君同意参加

D.
小东和小西因为工作问题争吵起来，双方互不相让，请经理评判对错。经理让其先分别将事件始末写下来，并分析原因

90.
羁束行政行为是指法律明确规定了行政行为的范围、条件、程度、方法等，行

政机关没有自由选择的余地，只能严格依照法律作出的行政行为。

根据上述定义，下列属于羁束行政行为的是（　　）。

A.

社团登记管理机关须在自收到被批准成立的具有法人资格的社会团体备案文件之日起30日内发给《社团登记证书》

B.

某公司在合并时，未依照公司法规定通知债权人，工商行政管理局责令其改正，并依照规定对该公司处以一万元以上十万元以下的罚款

C.

药品管理法规定，对已确认发生严重不良反应的药品，国务院或者省、自治区、直辖市人民政府的药品监督管理部门可以采取停止生产、销售、使用的紧急控制措施

D.

个体户甲出售手电筒，工商行政部门认为手电筒属于小五金，而甲的经营范围仅限于百货，便以其超范围经营为由作出行政处罚决定

91.

反向混淆是指在后商标使用人对商标的使用已使之具有较高的知名度，以至于消费者会误认为在前的商标使用人的商品来源于在后商标使用人，或认为二者之间存在某种赞助或认可的联系。

根据上述定义，下列属于反向混淆的是（　　）。

A.

甲服装公司为了尽快打响其儿童服饰的品牌知名度，便出资购买了一批知名品牌“好娃娃”童装，将其商标撕去，换上自己的“小豆”商标，“好娃娃”童装良好的质量和时尚的款式使“小豆”童装很快受到了消费者的青睐

B.

丙轮胎企业一直生产“B”商标轮胎，并向一些轮胎销售商供货，某国际知名轮胎企业丁试制新型轮胎，并以“B”为商标，耗费巨资进行推广，丙轮胎企业轮胎销量也因此上升

C.

某牙膏企业为了增加自身产品销量，便模仿知名品牌“中华”牙膏的包装设计，并使用“申华”商标，果然有不少消费者购买

D.

“冬儿”是著名的香水品牌，小明以此为店名开了一间酒吧，虽然该香水和酒吧毫无关系，但是还是有很多消费者认为这间酒吧是该香水品牌赞助的

92.

出丑效应又叫仰巴脚效应，指精明人不经心中犯点小错，不仅是瑕不掩瑜，而且会使人觉得他具有和别人一样会犯错的缺点，反而成为其优点，让人更加喜爱他。

下列属于出丑效应的是（　　）。

A.

贾某是一个非常优秀的成功人士，他在自己所从事的领域里取得了辉煌的成就，在万人的会场中演讲时，他态度自然，谈吐不俗，表现得非常有自信，没有一点羞涩的表情，他的精彩表现，赢得台下观众的阵阵掌声

B.

小李是某公司的普通职员，在全公司的一次会议上他被点名发言，但他表现得非常紧张，说话结结巴巴，很短的时间内就结束了他的发言

C.

为宣传、学习、贯彻党的十六届六中全会精神，中央宣讲团在贵州省遵义县做了一次全面、深刻、具体、透彻的宣讲，虽然会间出现了短时断电的事故，但未影响会场中观众的热情，随后的反响更加热烈，掌声不断

D.

某电视台主持人采访一个知名人士甄某，不过他在台上的表现略显羞涩，在主持人向观众介绍他所取得的成就时，他表现得非常紧张，竟把桌上的咖啡杯碰倒了，咖啡还将主持人的裤子弄脏了，可观众反而觉得他很可爱，拉近了距离

93.

商业诋毁行为，也被称为商业诽谤行为，是指损害他人商誉、侵犯他人商誉权的行为。具体而言，它是指经营者自己或利用他人，通过捏造、散布虚伪事实等不正当手段，对竞争对手的商业信誉、商品声誉进行恶意的诋毁、贬低，以削弱其市场竞争能力，并为自己谋取不正当利益的行为。

下列不属于商业诋毁行为的是（　　）。

A.

某大型商场不断向外地新闻单位和名优产品厂家写信，声称某商业单位如何不讲商业道德，希望这些单位或厂家不要再与该商业单位发生业务往来

B.

某日用化学品厂在电视台发布一则广告，用对比的手法宣称：用其他各种洗衣粉或洗涤剂30分钟也洗不掉的污斑，用了该厂生产的洗涤剂仅5分钟就洗干净了

C.

在房地产经营业务中，购房者在购房时，大都到各处询价比较，当一个购买者到甲房地产建设开发公司探知房子每平方米售价后，又来到乙房地产公司探询，乙公司的售房员得知此情况后，对该顾客说甲乙公司的房子质量和价格相差不多，但乙公司的信誉好、服务更好

D.

某洗涤剂厂在其所出售的洗衣粉产品包装说明上写道：“普通洗衣粉、肥皂均含磷、含铝，会诱发人体患老年痴呆症、骨软化、非缺铁性贫血等多种疾病”，并告诫人们以后再不要去买其他洗衣粉，还声称其生产的洗衣粉无上述缺点，可放心使用

94.

反暗示效应是说反语或过分夸大产生相反结果的效应。与暗示效应相反，这是指在有一定心理对抗的情况下，用夸张或者激将的间接方法影响别人的行为，从而诱导别人达到自己想要的结果或者发生预想的事件。

下列不属于反暗示效应的是（　　）。

A.

某广告商为××牌的香烟做广告创意，他们叫香烟商故意在广告上写“吸烟有害，请勿吸烟”，其中包括该品牌香烟，广告播出后，吸该香烟的人数增多

B.　诸葛亮摆空城计，司马懿疑有伏兵，遂遁去

C.

甲对乙说：“都说你聪明，你若能把我从屋内骗出屋外，我便信。”乙说：“我不能把你从屋内骗出屋外，但我肯定能把你骗入屋内。”甲不信，走到屋外

，乙说：“你已经被我骗出屋外了。”

D.
贾平凹的《废都》出版不久就被新闻出版总署封杀，但是人们还是通过各种渠道去购买或观看《废都》，《废都》的阅读率极高

95.感官协同效应是指多种感觉器官一齐上阵，能够提高感知的效果的现象。

根据上述定义，下列做法应用了感官协同效应的是（　　）。

A.
小明吃饭总是拖拖拉拉，妈妈改用小明感兴趣的椰壳盛饭后，小明吃饭的速度大大提高

B.
小红的爸爸大声指责小红的错误时总是取得反效果，后改为和声细语地倾谈，小红很快改正了错误

C.
小梅在电视上看到魔术表演时激动不已，一次她有幸成为嘉宾身临其境时，反而觉得平淡寡味

D.
小丽上门推销婴儿车总是无功而返，后来她直接带婴儿车进行推销，签下了不少订单

三、类比推理。每道题先给出一组相关的词，要求你在备选答案中找出一组与之在逻辑关系上最为贴近、相似或匹配的词。

请开始答题：

96.海马：哺乳动物

A.　猫头鹰：鸟类　　B.　乌龟：两栖动物

C.　海豹：哺乳动物　　D.　鳄鱼：爬行动物

97.欢笑：愉快

A.　嘲弄：轻蔑　　B.　鞠躬：害羞

C.　脸红：惊喜　　D.　耸肩：同意

98.潜逃：离开

A.　契约：约定　　B.　注视：窥探

C.　跟踪：追踪　　D.　串通：合作

99.魏徵：李世民：从谏如流

A.　楚国：晋文公：退避三舍　　B.　邵公：周厉王：道路以目

C.　褒姒：周幽王：烽火戏诸侯　　D.　比干：商纣王：荒淫无度

100.（　　）　对于　争论　相当于　反驳　对于　（　　）

A.　辩护　应答　　B.　议论　反响

C.　观点　意见　　D.　诡辩　驳斥

101.手表：发条

A.　汽车：发动机　　B.　空调：遥控器

C.　树干：树枝　　D.　自行车：变速器

102.温顺：绵羊

A.　机灵：鸽子　　B.　吉祥：凤凰

C. 狡猾：狐狸　　D. 斑斓：孔雀

103.碳酸钙：大理石：石灰岩

A. 谷氨酸钠：味精：调味品　　B. 奎宁：金鸡纳霜：生物碱

C. 木材：木炭：燃料　　D. 水泥：建材：摩天大楼

104.六小龄童：《西游记》

A. 林黛玉：《红楼梦》　　B. 罗贯中：《三国演义》

C. 李雪健：《水浒传》　　D. 祥林嫂：《祝福》

105.故意：直接故意：间接故意

A. 诉讼：审判：执行

B. 过失：过于自信的过失：疏忽大意的过失

C. 民法：合同法：婚姻法

D. 事故：抢救：处理

四、逻辑判断。每道题给出一段陈述，这段陈述被假设是正确的，不容置疑的，要求你根据这段陈述，选择一个答案。注意：正确的答案应与所给的陈述相符台，不需要任何附加说即可以从陈述中直接推出。

请开始答题：

106.一种安全扫描仪被设计用来探测行李中的爆炸物质，每当通过扫描仪的行李中含有爆炸物质时，扫描仪就会提醒它的操作者。当100件不含有爆炸物质的行李通过扫描仪时，扫描仪就会错误地提醒它的操作者一次。因此，在100次有爆炸物质的警报中，有99次实际上都存在有爆炸物质。

下列哪一项正确地指出了上述推理中的错误？（　　）

A. 忽视了当一件行李确实含有爆炸物质时，扫描仪有不发出警报的可能

B. 忽视了一旦扫描仪给它的操作者发出警报，操作者有人为错误的可能性

C. 在陈述百分比时，用一组代替了另一个不同的组

D. 基于那些可能有错误的警报，做了一个可靠性的结论

107.张教授：谁也不知道超级病毒究竟是怎样传入欧洲的，但它对欧洲人口稠密地区经济发展的负面影响是巨大的。如果这种病毒在今年继续传播蔓延，那么，国民经济的巨大损失将是无可挽回的。

李教授：所以要想挽回这种损失，只要阻止这种病毒的传播就可以了。

以下哪一项陈述与张教授的说法一致而与李教授的说法不一致？（　　）

A. 病毒的传播被阻断而国民经济遭受了不可挽回的损失

B. 病毒的传播被控制在一定的范围之内并且国民经济没有遭受不可挽回的损失

C. 病毒的传播被阻断并且国民经济没有遭受到不可挽回的损失

D. 病毒继续传播蔓延而国民经济遭受了不可挽回的损失

108.某些酶分子通过使环绕肺气管的肌肉细胞收缩来抵御有毒气体对肺部的损害，这使得肺部被封闭起来。当这些酶分子被不必要地激活时，对某些无害的事物，像花粉或者家庭粉尘作出反应，就出现了哮喘病。有一项计划准备开发一种药物，通过阻碍接受由上文所说的酶分子发出的信息来防止哮喘病的发生。

以下哪项如果为真，最能削弱上述计划的可行性？（　　）

A.

很多年内都无法获得这种药物，因为开发和生产这种药物都需要很长时间

B. 研究人员仍然不知道身体是如何产生这种引发哮喘病的酶分子的

C. 这样的药物无法区分由花粉和家庭粉尘引发的信息和由有毒气体引发的信息

D. 研究人员仍然不知道是什么使一个人体内的酶分子比其他人更容易被激活

109.梦境由人们记忆中彼此不连贯的形象组合而成，这些组合构成了一些很浅显的故事。然而，梦境没有蕴含心理上的意义，因为它们的产生仅仅是大脑在分类、比较和储存日常生活中的体验时所进行的能够导致视觉形象重现的化学反应过程而已。

以下哪项如果为真，最能反驳上文中的推理？（　　）

A. 除非做梦的人已经醒来，否则梦境不可能在人们之间实现交流

B. 如果梦境蕴含心理上的意义，那么梦境将比现实连续而有条理

C. 没有相应的化学反应过程，大脑不可能实现它的功能

D. 无论是对体验的分类还是形象组合构成故事，都是蕴含有心理意义的过程

110.单位新招了一批员工，有些新员工刚入职就当上了科级干部。在本年度的年度考核中，所有广西籍的员工都被评为优秀，所有科级干部都没有被评为优秀。

如果上述断定为真，下列哪一项也必定为真？（　　）

A. 所有的新员工都不是广西人　　B. 有些新员工在本年度被评为优秀

C. 有些新员工不是广西人　　D. 并非所有广西籍的员工都是新员工

111.建筑历史学家詹姆斯教授对欧洲18世纪早期铺有木地板的房子进行了研究，结果发现较大的房间铺设的木板条比较小房间的木板条窄得多。詹姆斯教授认为，既然大房子的主人一般都比小房子的主人富有，那么用窄木条铺地板很可能是当时有地位的象征，用以证明房主的富有。

以下哪项如果为真，最能支持詹姆斯教授的观点？（　　）

A. 在18世纪早期的欧洲，木地板条的价格是以长度为标准计算的

B. 18世纪晚期，欧洲的大多数房子所铺设的木地板的宽度大致相同

C. 詹姆斯教授的学术地位得到了国际建筑历史学界的公认

D. 18世纪早期，欧洲有些大房子铺设的是比木地板昂贵得多的大理石

112.相对论的创立者爱因斯坦是左撇子，发明家富兰克林和科学家牛顿是左撇子，米开朗琪罗、毕加索和贝多芬也都是左撇子。这表明，创造性研究是左撇子独特的天然禀赋。

以下哪项陈述是上述论证所依赖的假设？（　　）

A. 自福特以来的美国总统，除少数几位外都是左撇子

B. 左撇子突出的创新研究能力并不是由教育和环境等后天因素决定的

C. 20世纪初，中国的父母还在煞费苦心地矫正孩子惯用左手的“坏毛病”

D. 左撇子具有一定的遗传性，例如，英国女王伊丽莎白和她的母亲都是左撇子

113.去年的通货膨胀率是1.2%，今年到目前为止已经达到4%。因此我们可以得出结论：通货膨胀率呈上升趋势，明年的通货膨胀率会更高。

以下哪个选项如果为真，最能削弱上述结论？（　　）

A. 通货膨胀率是根据有代表性的经济灵敏数据样本计算的，而不是根据所有数据

B. 去年油价下跌导致通货膨胀率暂时低于近几年来4%的平均水平

C. 通货膨胀促使增加工人工资，而工资的增长又成为推动通货膨胀率以4%或更高速度增长的动力

D. 去年1.2%的通货膨胀率是10年来最低的

114.某市一项对交谊舞爱好者的调查表明，那些称自己每周固定去舞厅跳交谊舞一至两次的人近三年来由28%增加到35%，而对该市大多数舞厅的调查显示，近三年来交谊舞厅的顾客人数却明显减少了。

以下各项如果是真的，都有助于解释上述看起来矛盾的断定，除了（　　）。

A. 上交谊舞厅没什么规律的人在数量上明显减少了

B. 为了吸引更多的顾客，该市交谊舞厅普遍调低了营业价格

C. 家庭交谊舞会逐渐流行

D. 受调查的交谊舞爱好者只占全市交谊舞爱好者的10%

115.由于外科医生的数量比手术数量增加得快，同时，由于不开刀的药物治疗在越来越多地代替外科手术，近年来每个外科医生的年平均手术量下降，可以推断，如果这种趋势持续下去，外科手术水平会发生大幅度下降。

上述论证基于以下哪项假设？（　　）

A. 除非一个外科医生以一定的最小频率做手术，否则他的医术水平不可能适当地保持下去

B. 外科医生将他们的大部分时间用在完成不用开刀的药物治疗工作上

C. 所有的医生，尤其是外科医生，在医学院所接受的训练的时间在减少

D. 由于病源的因素，每一个外科医生本人的医术水平近年来都有所下降

第四部分结束，请继续做第五部分！

第五部分　资料分析

（共20题，参考时限20分钟）

所给出的图、表、文字或综合性资料均有若干个问题要你回答。你应根据资料提供的信息进行分析、比较、计算和判断处理。

请开始答题：

一、根据下列资料，回答116—120题。

2010年，福建省全年进出口总额1087.82亿美元，比上年增长36.6%。其中，出口714.97亿美元，增长34.1%；进口372.86亿美元，增长41.6%。

2010年福建省对主要国家和地区进出口情况

国家和地区	出口额(亿美元)	比上年增长(%)	进口额(亿美元)	比上年增长(%)
美国	148.65	37.1	37.35	35.2
欧盟	145.95	28.8	35.98	36.5
东盟	83.07	38.3	48.91	46.3

日本	54.09	6.6	36.38	56.1
中国香港	45.57	30.0	1.62	48.6
中国台湾	22.12	43.7	81.76	50.1
韩国	20.49	46.0	34.62	44.4
俄罗斯联邦	9.74	73.2	3.66	75.0

批准设立外商直接投资项目1139个，比上年增长21.3%。其中，合同外资金额121.20亿美元，增长33.5%；实际利用外商直接投资103.16亿美元，增长2.5%。

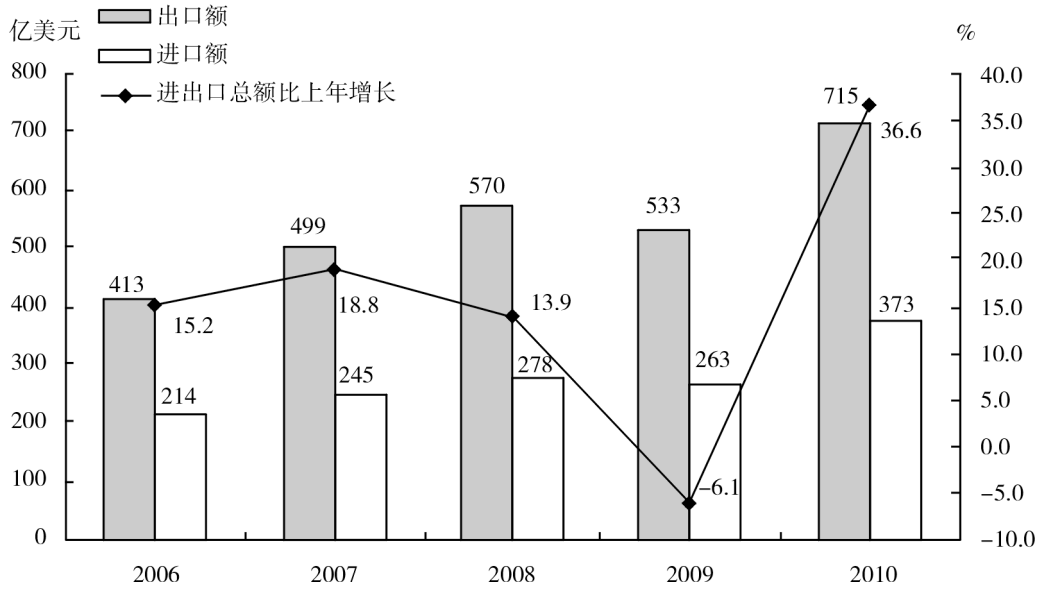

“十一五”时期货物进出口总额及其增长速度

116.2009年，福建省对外贸易顺差约为（　　）亿美元。

A.　226.87　　B.　269.84　　C.　312.82　　D.　342.11

117.2005—2009年，福建省年均货物进出口总额为（　　）亿美元。

A.　474.6　　B.　603.0　　C.　711.8　　D.820.6

118.2010年，福建省对主要国家和地区货物进出口总额从大到小进行排名，其中排名一致的有几个？（　　）

A.　1 个　　B.　2个　　C.　3个　　D.　4个

119.2009年，外商直接投资项目中，平均每个项目合同外资为多少万美元？（　　）

A.　905　　B.　967　　C.　1064　　D.　1081

120.根据材料，下列说法中错误的一项是（　　）。

A.
2010年，福建省主要进出口国家和地区中，进口货物同比增加量最大的是台湾地区

B.
与2009年相比，2010年主要国家和地区中，福建省进出口货物增速最快的国家是俄罗斯

C.　“十一五”期间，福建省进口货物总额逐年增加

D.　2009年，福建省从日本进口货物总量小于韩国

二、根据资料，回答121—125题。

2010年，江苏省全年粮食总产量达3235.1万吨，比上年增加5万吨；其中夏粮1105.3万吨，增长0.2%；秋粮2129.8万吨，增长0.1%。全年粮食面积为528.2万公顷，比上年增加1.0万公顷；棉花面积为23.6万公顷，减少1.7万公顷；油料面积57.4万公顷，减少1.9万公顷；蔬菜面积121.3万公顷，增加6.5万公顷。

2010年，江苏省全年肉类总产量366.6万吨，比上年增长6.5%，其中猪牛羊肉产量224.0万吨，增长4.1%；禽肉产量132.7万吨，增长10.2%。禽蛋总产量190.6万吨，增长2.9%。全年水产品总产量459.5万吨，增长3.7%，其中淡水产品324.0万吨，海水产品135.5万吨，分别增长3.6%和3.9%。

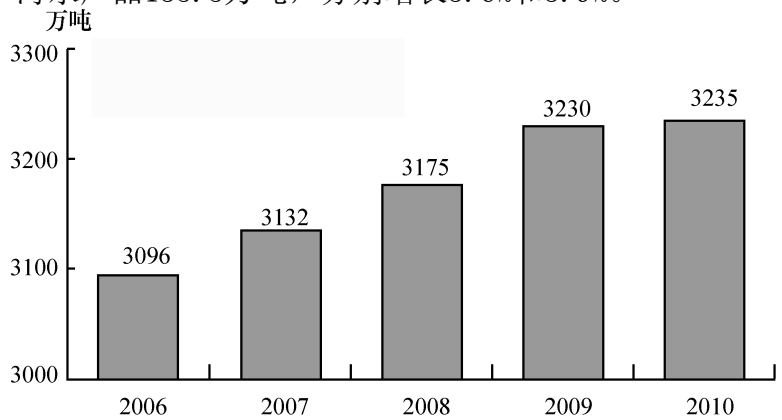

“十一五”期间江苏省粮食总产量

2010年江苏省主要农产品产量情况

产品名称	产量（万吨）	比上年增长（%）
粮食	3235.1	0.2
棉花	26.1	2.1
油料 其中：油菜子 花生	152.0 112.4 37.7	-6.1 -7.6 -2.3
蔬菜	8.0	0.9
茶叶	1.5	-5.8
水果（含瓜果类）	725.2	1.3
肉类	366.6	6.5
水产品	459.5	3.7

121.2009年，江苏省油料的平均亩产量约为（　　）公斤。（1公顷=15亩）

A.　176　　B.　182　　C.　188　　D.　273

122.2010年，下列农产品中，种植面积同比变化最快的是（　　）。

A.　蔬菜　　B.　粮食　　C.　油料　　D.　棉花

123.2009年，江苏省油料产量中，花生产量所占的比重约为（　　）。

A.　23.8%　　B.　24.8%　　C.　25.2%　　D.　28.6%

124.“十一五”期间，江苏省粮食产量增加最快的一年是（　　）。

A.　2007年　　B.　2008年　　C.　2009年　　D.　2010年

125.下列说法中，正确的是（　　）。

A.　与2009年相比，江苏省2010年蔬菜和棉花的亩产量都大于上一年

B.　与2009年相比，江苏省2010年水产品中淡水产品所占的比重在上升

C. “十一五”期间，江苏省粮食产量的年平均增长率约为1.1%

D. 2010年，江苏省猪牛羊肉产量的增加值比禽肉产量的增加值大

三、根据下列资料，回答126—130题。

2010年，浙江省粮食播种面积和单产分别比上年下降1.1%和1.3%，粮食总产量为770.67万吨，下降2.3%，其中晚稻总产量为584.71万吨，下降2.4%。油料播种面积208.75千公顷；蔬菜播种面积618.59千公顷，与上年持平；棉花播种面积20.8千公顷，比上年增长3.5%。

畜牧业生产形势好转，渔业生产增幅明显。全年肉类总产量为175.13万吨，比上年增长2.8%；渔业产量461.4万吨，增长7.4%，其中海水捕捞产量282.1万吨，海水养殖产量82.6万吨，淡水产品产量96.7万吨。

2010年浙江省主要农产品产量

指标	绝对数(万吨)	比上年增长(%)
粮食	770.67	-2.3
油料	39.46	-8.7
其中：花生	5.36	-0.5
油菜子	33.26	-10.2
棉花	2.88	2.5
糖料	74.89	-8.0
茶叶	16.05	-4.1
水果	726.39	2.0
蔬菜	1772.13	0.4

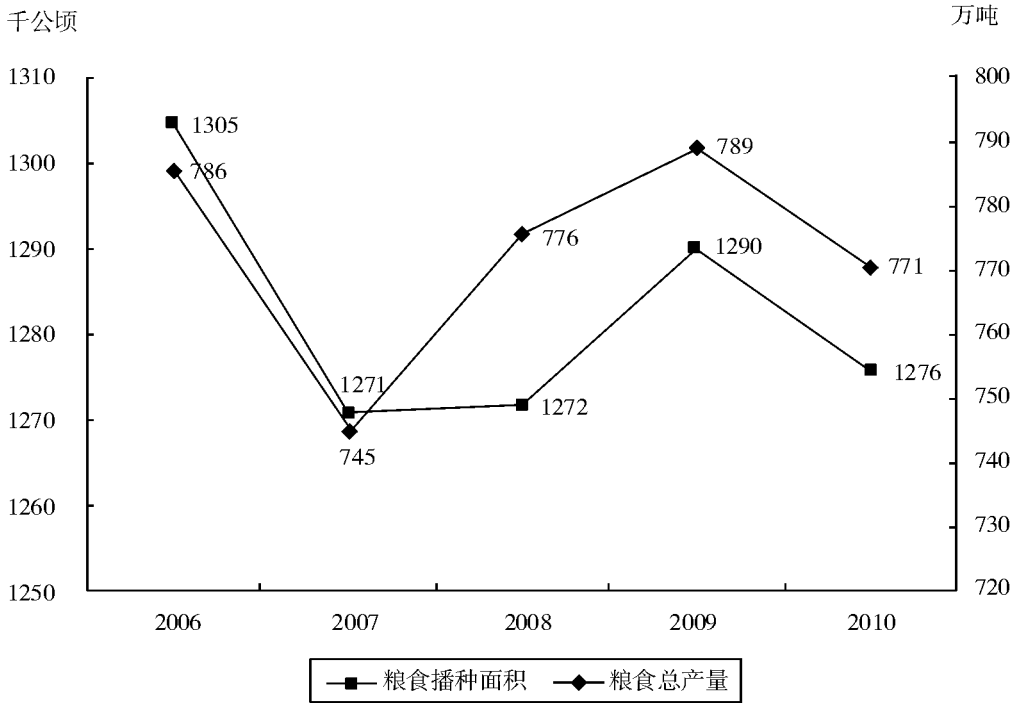

2006—2010年浙江省粮食播种面积和总产量

126.2010年，浙江省粮食的亩产量为（　　）公斤。（1公顷=15亩）

A. 92.3　B. 126.0　C. 402.8　D. 1909.9

127.与2009年相比，下列四种农作物中，产量变化值最大的是（　　）。

A. 粮食　B. 蔬菜　C. 水果　D. 糖料

128.2007—2010年，浙江省粮食产量变化最慢的一年是（　　）。

A.　2007年　　B.　2008年　　C.　2009年　　D.　2010年

129.2009年，浙江省渔业产量为（　　）万吨。

A.　429.6　　B.　446.1　　C.　462.5　　D.　495.5

130.根据资料，下列说法一定错误的一项是（　　）。

A.　2010年，晚稻产量占粮食产量的比重低于2009年

B.　2010年，海水捕捞产量超过淡水捕捞产量

C.　2006—2010年，浙江省粮食亩产量逐年下降

D.　2010年，油料的亩产量低于2009年

四、根据以下资料，回答131—135题。

2010年山东省经济实现平稳较快发展。初步核算，全省实现生产总值（GDP）39416.2亿元，按可比价格计算，比上年增长12.5%。其中，第一产业增加值增长3.6%；第二产业增加值增长13.4%；第三产业增加值增长13.0%。产业结构调整取得明显成效，三次产业比例为9.1∶54.3∶36.6。

农林牧渔业平稳发展。农业增加值2146.6亿元，比上年增长2.5%；林业增加值60.7亿元，增长9.9%；牧业增加值727.0亿元，增长4.2%；渔业增加值521.4亿元，增长4.9%；农林牧渔服务业增加值132.5亿元，增长9.9%。

主要农牧产品产量稳定增加。粮食连续8年增产，总产量达到4335.7万吨。新建瓜、菜、果、茶标准化基地606万亩，无公害农产品、绿色食品基地面积分别达到1555万亩和817万亩。农产品出口突破百亿美元，达到127.1亿美元，增长30.1%。

山东省2010年主要农牧产品产量及增长速度

产品名称	单位	产量	比上年增长（%）
粮食	万吨	4335.7	—
夏粮	万吨	2060	0.6
秋粮	万吨	2275.7	0.3
棉花	万吨	72.4	-21.4
油料	万吨	342.2	2.3
蔬菜	万吨	9030.7	1
园林水果	万吨	1438.9	1.4
肉类	万吨	704.7	3
猪牛羊肉	万吨	454.5	2.4
禽肉	万吨	238.9	4.1
禽蛋	万吨	384.8	1.9
奶类	万吨	271.6	5.2

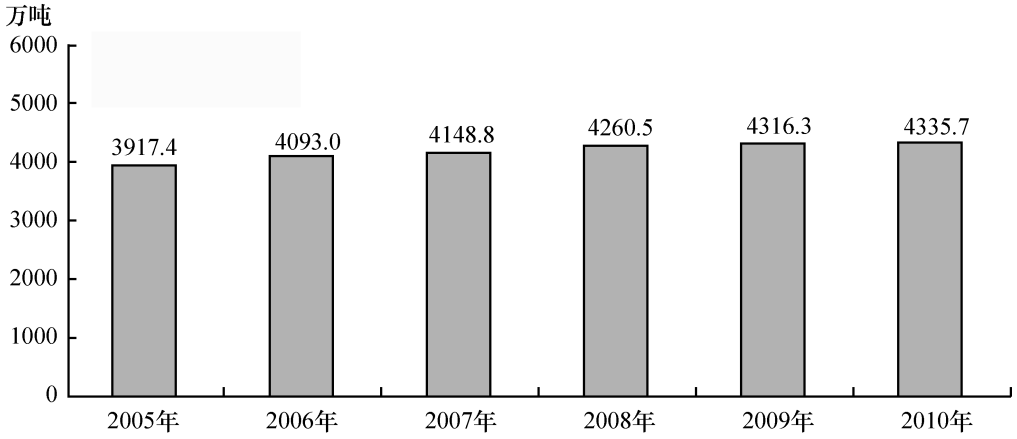

山东省2005—2010年粮食总产量

131.2009年，山东省农业增加值占第一产业增加值的比重约是（　　）。

A.　55%　　B.　60%　　C.　65%　　D.70%

132.与2009年相比，2010年山东省农牧产品中增长量最大的产品与增长量最小的产品的增长量相差约（　　）万吨。

A.　110　　B.　7　　C.　95　　D.　27

133.与2008年相比，2010年山东省粮食总产量增长率约（　　）。

A.　上升了0.1个百分点　　B.　下降了0.3个百分点

C.　上升了2.1个百分点　　D.　下降了2.3个百分点

134.若某人用2010年12月31日的美元对人民币汇率计算出，2010年山东省农产品出口额占农业增加值的比重为39%，那么12月31日这一天，1美元约兑多少元人民币？（　　）

A.　6.4　　B.　6.6　　C.　6.8　　D.　无法计算

135.能够从上述资料中推出的是（　　）。

A.　2006—2010年，山东省粮食总产量的增长量均不相同

B.　2010年，山东省无公害农产品基地面积比绿色产品基地面积多将近90%

C.　2010年，山东省主要牧产品产量均较去年有所提高

D.
2010年，山东省渔业增加值增长量不到农林牧渔服务业增加值增长量的2倍

全部测验到此结束！